Name : _____ Tangal : _____

LKPD - Misi LALA di Negeri Bentuk

Bagian A. Ciri Bangun Datar dan Sisi Datar

Bangun datar	Banyak sisi	Banyak sudut	Ciri khusus
Segitiga			
Persegi			
Persegi panjang			
Segilima			
Segienam			

Bangun ruang	Banyak sisi datar	Bentuk sisi datar
Kubus		
Balok		
Tabung		
Bola		





LIVEWORKSHEETS

Bagian B. Menyusun (Komposisi)

Amati susunan dua segitiga siku-siku yang sama di bawah ini, lalu tuliskan nama bentuk yang terbentuk pada Cara 1 dan Cara 2!

Cara	Hasil susunan dua segitiga siku-siku	Nama bentuk yang terbentuk
Cara 1	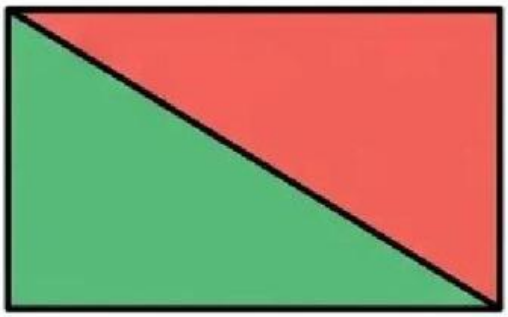	
Cara 2	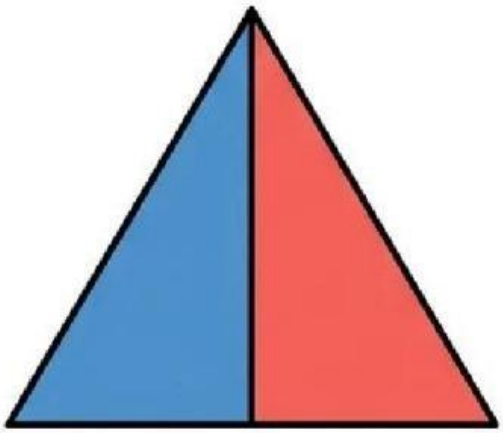	

LIVEWORKSHEETS

Bagian C. Menguraikan (Dekomposisi)

Amati garis pemisah pada persegi di bawah ini, lalu tuliskan nama bangun penyusunnya pada Cara 1 dan Cara 2!

Cara	Gambar garis pemisah	Nama bangun penyusun
Cara 1	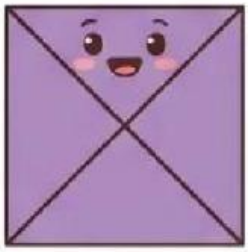	
Cara 2		

Perbedaan komposisi dan dekomposisi:

Komposisi adalah _____

_____

_____

Dekomposisi adalah _____

_____

_____

LIVEWORKSHEETS

Bagian D. Mengevaluasi Pernyataan



Dina berkata, “Persegi hanya dapat diurai dengan satu cara, yaitu menjadi dua segitiga siku-siku.”





Setujukah kamu dengan Dina?

☐ Setuju ☐ Tidak setuju

Alasanku: _____

_____

_____

Buktiku (tuliskan atau pilih cara lain untuk menguraikan persegi):



LIVEWORKSHEETS