ชื่อ-สกุล.....ชั้น.....เลขที่.....

แบบทดสอบ

เรื่อง ความเท่ากันทุกประการ

คำชี้แจง ให้นักเรียนเลือกความสัมพันธ์ของรูปสามเหลี่ยมที่เท่ากันทุกประการ ให้ถูกต้องตามรูปภาพที่กำหนด

1)

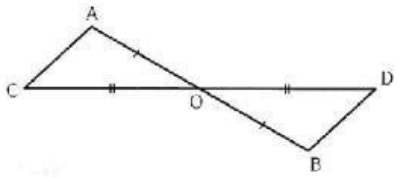

ตอบ

2)

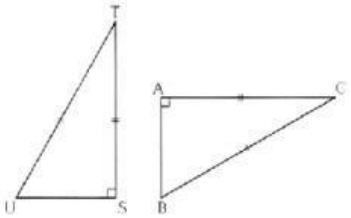

ตอบ

3)

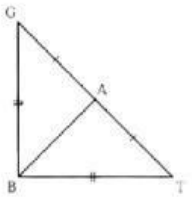

ตอบ

4)

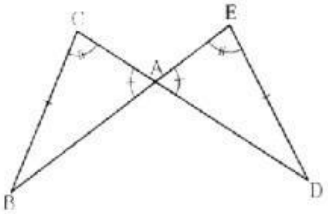

ตอบ

5) กำหนดให้ AD = AK, $A\hat{D}E = A\hat{K}S$ และ $D\hat{A}E = K\hat{A}S$

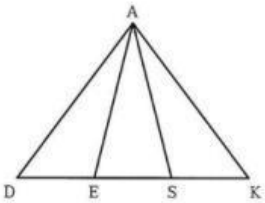

ตอบ

6)

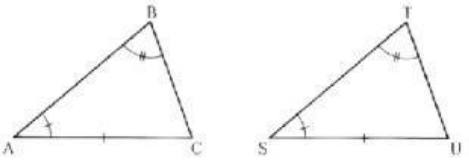

ตอบ

7)

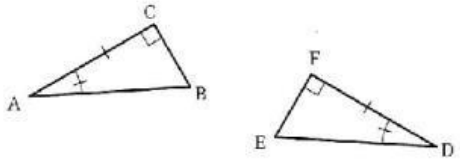

ตอบ

8) กำหนดให้ BC = BD และ $A\hat{B}C = A\hat{B}D$

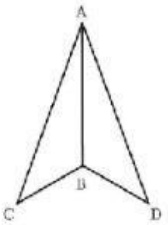

ตอบ

9)

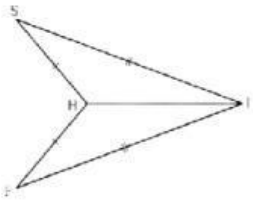

ตอบ

10)

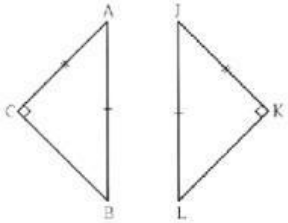

ตอบ

LIVEWORKSHEETS

11) 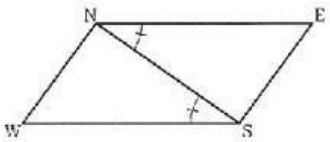

ตอบ

12) 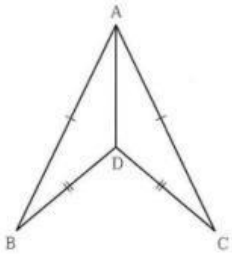

ตอบ

13) 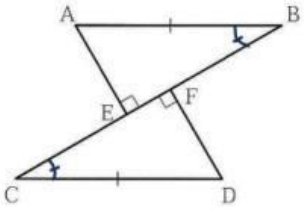

ตอบ

14) 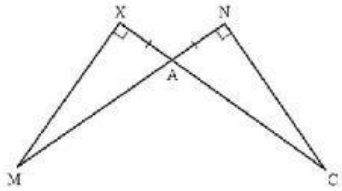

ตอบ

15) กำหนดให้ $O\hat{A}B = O\hat{S}T = 90^\circ$, $OB = OT$, $AB = ST$

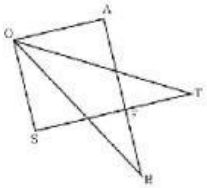

ตอบ

16) 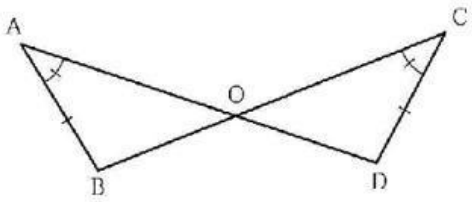

ตอบ

17) 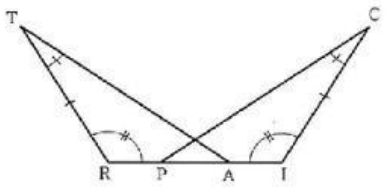

ตอบ

18) 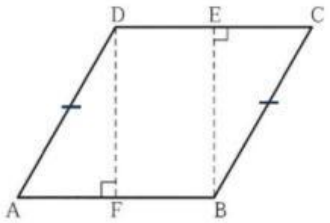

ตอบ

19) 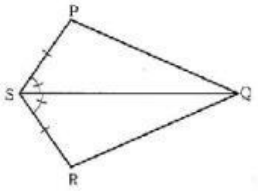

ตอบ

20) 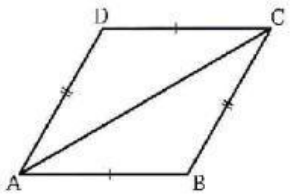

ตอบ

LIVEWORKSHEETS