SDLB TUNARUNGU PANGUDI LUHUR

Jl. Pesanggrahan 125, Kembangan,
Jakarta Barat 11610, Telp. (021) 5804223

Hari, Tanggal : Jumat, 26 Maret 2021

Kelas/Semester : SD 1B/2

Mata Pelajaran : Latihan Matematika

Materi : Bangun Datar

A. BERILAH TANDA SILANG (X) PADA HURUF A, B ATAU C PADA JAWABAN YANG BENAR!

Perhatikan gambar di bawah ini untuk mengisi soal nomor 1 – 5!

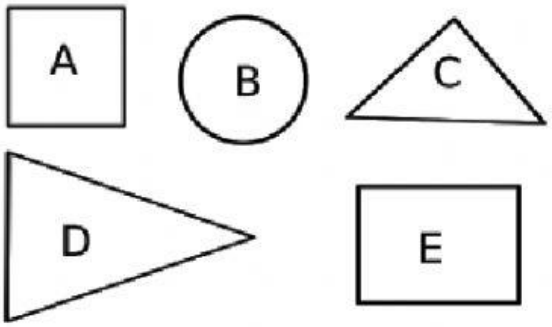

1. gambar A adalah menunjukkan bangun ….
a. segitiga
b. segiempat
c. segilima

2. gambar B adalah menunjukkan bangun ….
a. lingkaran
b. segiempat
c. segitiga

3. gambar C adalah menunjukkan bangun ….
a. segitiga
b. segiempat
c. lingkaran

4. bangun segitiga ditunjukkan gambar ….
a. A dan B
b. C dan D
c. A dan E

LIVEWORKSHEETS

SDLB TUNARUNGU PANGUDI LUHUR

Jl. Pesanggrahan 125, Kembangan,
Jakarta Barat 11610, Telp. (021) 5804223

5. bangun segiempat ditunjukkan gambar ….
a. C dan D
b. A dan D
c. A dan E

6. contoh benda yang biasanya berbentuk lingkaran adalah ….
a. kotak pensil
b. roda sepeda
c. kardus makanan

7. contoh benda yang biasanya berbentuk segiempat adalah ….
a. roda mobil
c. matahari
c. meja belajar

8.
titik-titik di atas jika dihubungkan dengan garis maka akan membentuk bangun ….
a. segitiga
b. segiempat
c. lingkaran

9.



titik-titik di atas jika dihubungkan dengan garis maka akan membentuk bangun ….
a. segitiga
b. segiempat
c. lingkaran

LIVEWORKSHEETS

10. andi membeli buku
buku tersebut berbentuk ….
a. segiempat
b. segitiga
c. lingkaran

11. rina melihat matahari terbit pada pagi hari
rina melihat bahwa matahari itu berbentuk ….
a. segiempat
b. lingkaran
c. segitiga

12. segiempat mempunyai sisi sebanyak ….
a. 3
b. 4
c. 5

13.

uang logam di atas mempunyai bentuk ….
a. lingkaran
b. bola
c. segiempat

14. benda di bawah ini yang tidak berbentuk segi empat adalah ….
a. uang kertas
b. buku gambar
c. terompet

15. bangun lingkaran mempunyai sisi sebanyak ….
a. 1
b. 2
c. 3

LIVEWORKSHEETS

SDLB TUNARUNGU PANGUDI LUHUR

Jl. Pesanggrahan 125, Kembangan,
Jakarta Barat 11610, Telp. (021) 5804223

perhatikan gambar di bawah ini untuk mengisi soal nomor 16 – 20

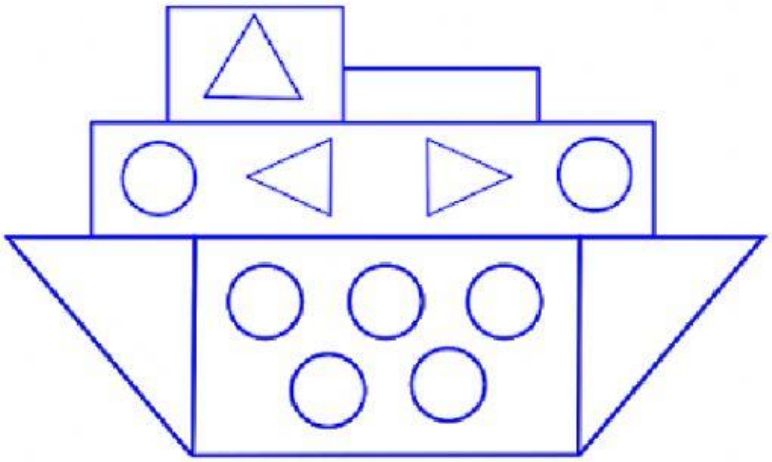

16. gambar di atas mempunyai lingkaran sebanyak ….
a. delapan
b. tujuh
c. sembilan

17. banyak bangun segiempat pada gambar di atas adalah ….
a. empat
b. lima
c. tiga

18. jumlah bangun segitiga pada gambar di atas adalah ….
a. empat
b. enam
c. lima

19. jenis bangun datar paling banyak pada gambar di atas adalah ….
a. segitiga
b. lingkaran
c. segiempat

20. jenis bangun datar paling sedikit pada gambar di atas adalah ….
a. segitiga
b. segiempat
c. lingkaran

LIVEWORKSHEETS