с/р.

Задачи по теме «Прямая и ее части. Окружность. Угол»

I в II в

1 *Дано*: $AB = 20$ см, AC на 6 см больше BC.
Найти: BC.

Ответ:

2 *Дано*: $AB = 32$ см,
AK на 10 см меньше KB.
Найти: KB.

Ответ:

3 *Дано*: $MN = 36$ см,
MK в 2 раза меньше KN.
Найти: KN.

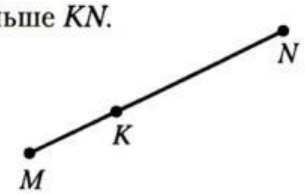

Ответ:

4 *Дано*: $MK = 48$ см, MN равен $\frac{3}{5}$ NK.
Найти: MN.

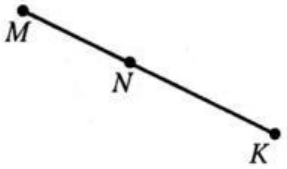

Ответ:

5 *Дано*: $BM = 8$ см, M — середина AC;
$AB : BM = 2 : 1$.
Найти: AC.

Ответ:

6 *Дано*: $MB = 24$ см, B — середина AC;
$AM : MB = 1 : 3$.
Найти: AC.

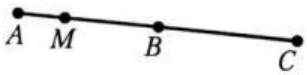

Ответ:

7 *Дано*: $AB = 32$ см, M — середина AC,
K — середина BC.
Найти: MK.

Ответ:

8 *Дано*: M — середина AB,
K — середина BC;
$MK = 26$ см.
Найти: AC.



Ответ:

9 *Дано*: $AB = 50$ см, $AC = 42$ см,
$DB = 48$ см.
Найти: DC.

Ответ:

10 *Дано*: $KM = 10$ см, $AM = 32$ см,
$KB = 28$ см.
Найти: AB.

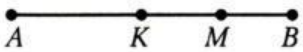

Ответ:

LIVEWORKSHEETS