ชื่อ-นามสกุล: ..... เลขที่: ..... วันที่ .....

ใบที่ 4: โจทย์พร้อมตัวเลือก
(MULTIPLE CHOICE QUESTIONS)

เลือกคำตอบที่ถูกต้องที่สุดเพียงข้อเดียว

1. รูปใดต่อไปนี้มี 5 ด้าน?

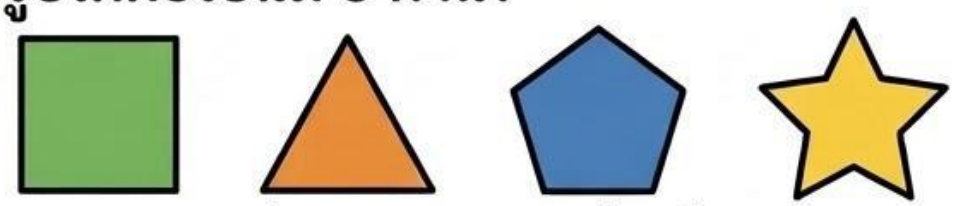

ก. สามเหลี่ยม
ข. สี่เหลี่ยม
ค. ห้าเหลี่ยม
ง. หกเหลี่ยม

2. โดยปกติแล้วหน้าปัดนาฬิกามีรูปทรงอะไร?

ก. วงกลม
ข. สี่เหลี่ยม
ค. สามเหลี่ยม
ง. สี่เหลี่ยมผืนผ้า

3. จงระบุรูปภาพที่มีเพียง 3 มุม.



ก. วงกลม
ข. สี่เหลี่ยมจัตุรัส
ค. สามเหลี่ยม
ง. รูปสามเหลี่ยมมุมฉาก

4. แซนด์วิชที่ถูกตัดตามแนวทแยงจะได้รูปทรงอะไร?



ก. วงกลม
ข. สี่เหลี่ยม
ค. สามเหลี่ยม

LIVEWORKSHEETS