Діагностувальна робота

Варіант 1

1. Борсучок йде в гості до білочки. Допоможи йому пройти по стежці. Впиши пропущені числа.

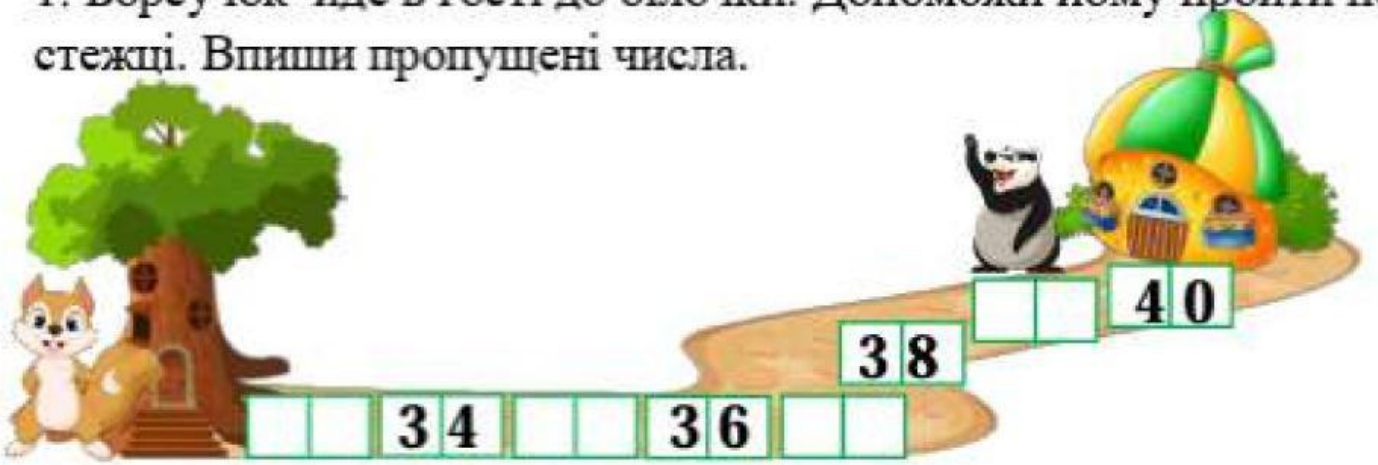

2. Білочка повісила сушити гриби. Запиши числа, що на грибках, у порядку зростання.

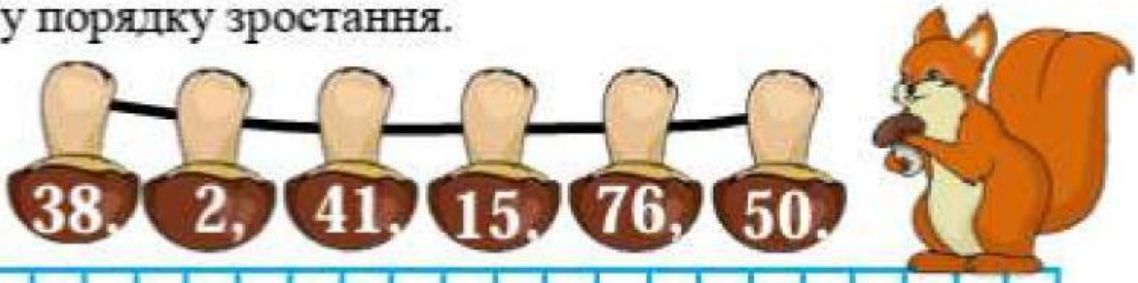

3. Допоможи білочці порахувати запаси на зиму. Обчисли вирази.

19 – 9 =	10 + 7 =
15 – 10 =	19 – 5 =
36 – 6 =	15 + 3 =
48 – 40 =	50 + 8 =

4. Допоможи борсуку порівняти числа і вирази.

73 ☐ 37	70 + 30 ☐ 73
38 ☐ 72	50 – 10 ☐ 44

LIVEWORKSHEETS

5. Розв'яжи задачу.

Білочка знайшла 3 грибка, а горішків – на 7 більше.

Скільки горішків знайшла білочка?

Відповідь:

6. Допоможи білочці і борсуку правильно розмалювати фігури:

трикутники – зеленим;

квадрати – синім;

круги – жовтим;

прямокутники – коричневим.

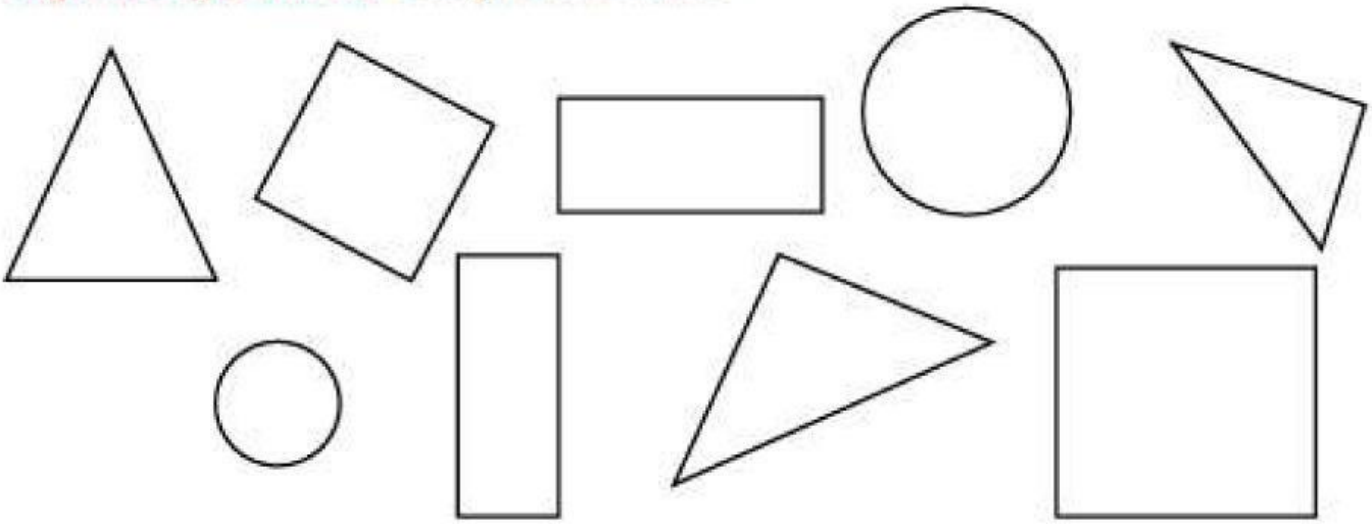

7. Виміряй довжину олівця. Запиши.

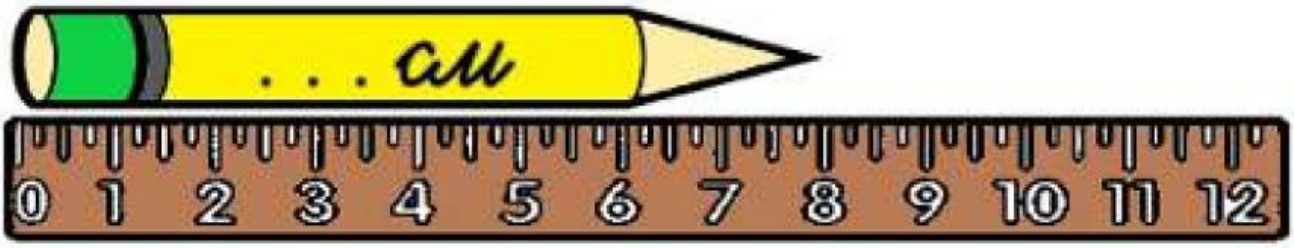

LIVEWORKSHEETS