ชื่อ.....เลขที่.....ชั้น อนุบาล3

ใบงาน

เรื่อง ตัวเลขกับจำนวน 1-10

ชุดที่ 6

คำชี้แจง ให้เด็กๆเติมตัวเลขให้เท่ากับจำนวนผลไม้

6 7 8 9 10







ครูมาศ
โรงเรียนบ้านควนจง

LIVEWORKSHEETS