# Геометричні фігури. Точка, пряма, промінь

**1.**

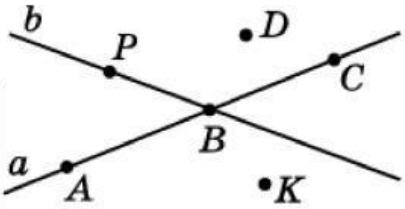


Назвіть точки, що належать прямій a:

Назвіть точки, що належать прямій b:

A K B C P D

**2.**

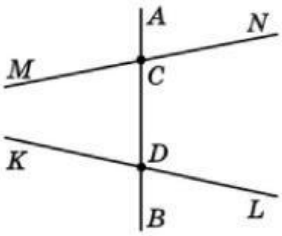


Запишіть усі промені з початком у точці C:

Запишіть пари доповняльних променів, початок яких – точка D:

**3.З'єднай назву з малюнком:**

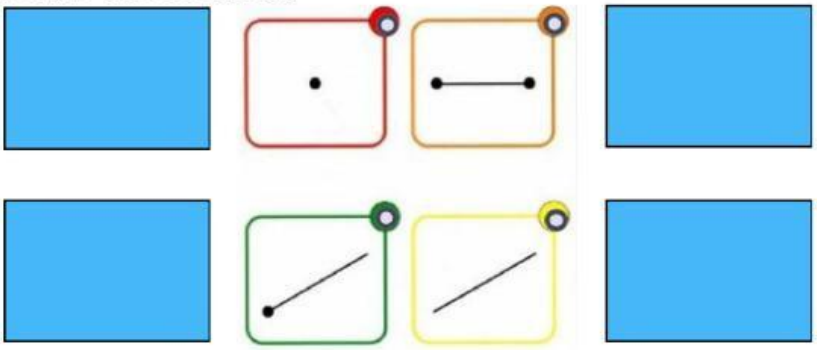

LIVEWORKSHEETS