Họ và tên: …… Thứ ……. ngày……tháng ….. năm ……

Lớp: 1A……. **PHIẾU LUYỆN TẬP VIOLYMPIC - SỐ 2**

Khoanh tròn đáp án đúng hoặc làm theo yêu cầu:

Câu 1. Đếm số lượng của mỗi con vật/ đồ vật trong hình dưới đây và điền vào ô trống:

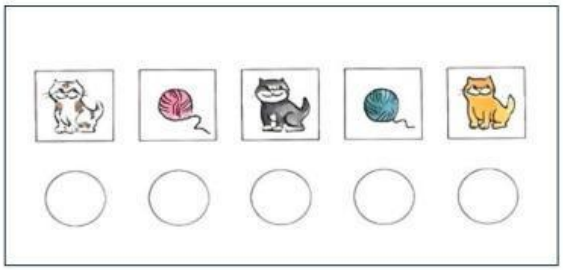

Câu 2. Chọn đáp án đúng:



A. > C. =

B. < D. không so sánh

Câu 3. Số bé nhất trong các số 1, 4, 3, 10, 2 là:

A. 1 B. 0 C. 9 D. 3

Câu 4. Chọn đáp án đúng:

A. 10 < 1 B. 9 = 9 C. 7 < 4 D. 3 = 0

Câu 5. Số nhỏ hơn 5 và lớn hơn 3 là……

A. 4 B. 5 C. 6 D. 7

Câu 6. Phép so sánh nào dưới đây sai.

A. 1 < 3 < 4 B. 6 > 5 > 4 C. 5 > 7 > 8 D. 1< 2 < 4

Câu 7. Số?



Số cần điền vào dấu hỏi chấm là:…….

Câu 8. Ở giữa quả dưa hấu và quả táo là quả gì?

A. C.

B. D.

LIVEWORKSHEETS

Câu 9. Có bao nhiêu quả dâu nằm trong cả hình tròn và hình chữ nhật?

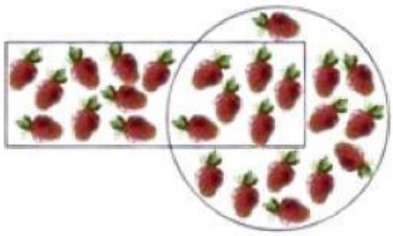

Trả lời: ……. quả

Câu 10. Nhìn vào sơ đồ và cho biết, có bao nhiêu con vật chỉ sống dưới nước?

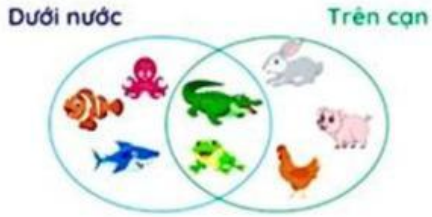

A. 3 con C. 5 con

B. 4 con D. 6 con

Câu 11. Một con hà mã bằng bao nhiêu con chim cánh cụt.

A. 4 B. 5 C. 6 D. 7

Câu 12. Dựa vào quy luật, điền số còn thiếu vào ô trống.

1	2	3	5	

Câu 13. Số con vịt được cho như hình sau:

Biết rằng số con gà bằng số con vịt. Hỏi có bao nhiêu con gà?

A. 7 B. 8 C. 9 D. 10

Câu 14: Chú ong bên dưới nằm trong mấy hình tròn.



A. 1 hình tròn C. 3 hình tròn

B. 2 hình tròn D. 4 hình tròn

Câu 15: Cô Lan xếp hàng mua vé xem phim. Đứng trước cô có 4 người và cô Lan đứng thứ 2 từ dưới cuối hàng lên. Hỏi có bao nhiêu người cùng mua vé xem phim?

- Trả lời: Có …… người mua vé xem phim.

LIVEWORKSHEETS