ชื่อ.....ชั้น ป.5 เลขที่.....

ใบกิจกรรมทบทวนความรู้เรื่อง เศษส่วน

คำชี้แจง : ให้นักเรียนสังเกตส่วนที่ระบายสีในวงกลมแล้วโยงเส้นจับคู่กับเศษส่วนที่มีค่าเท่ากันให้ถูกต้อง

1. 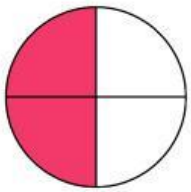

$\frac{2}{6}$

2. 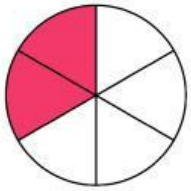

$\frac{2}{4}$

3. 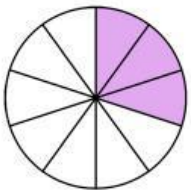

$\frac{6}{10}$

4. 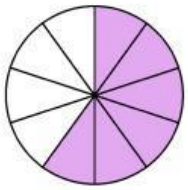

$\frac{8}{10}$

คำชี้แจง : ให้นักเรียนเติมตัวเศษหรือตัวส่วนที่หายไปเพื่อทำให้เศษส่วนมีค่าเท่ากัน

1. $\frac{1}{2} = \frac{\square}{4}$

2. $\frac{1}{3} = \frac{\square}{6}$

3. $\frac{2}{3} = \frac{8}{\square}$

4. $\frac{5}{6} = \frac{10}{\square}$

คำชี้แจง : ให้นักเรียนเรียงลำดับเศษส่วนต่อไปนี้จากมากไปหาน้อยให้ถูกต้อง

1. $\frac{1}{2}$ $\frac{2}{2}$ $\frac{5}{8}$

.....

2. $\frac{3}{7}$ $\frac{4}{7}$ $\frac{5}{7}$

.....

LIVEWORKSHEETS