Họ và tên: …… Thứ ……. ngày……tháng ….. năm ……

Lớp: 1A……. **PHIẾU LUYỆN TẬP VIOLYMPIC - SỐ 1**

Khoanh tròn đáp án đúng hoặc làm theo yêu cầu:

Câu 1: Chậu hoa có bao nhiêu bông hoa?

A. 6 C. 7

B. 8 D. 9

Câu 2: >, <, = ?

A. > B. < C. =

Câu 3: Cần thêm mấy con khỉ để bức tranh có tất cả 10 con khỉ?

A. 10 C. 5

B. 3 D. 4

Câu 4: Số?

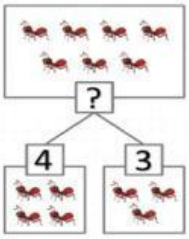

Số cần điền vào dấu hỏi chấm là:…….

Câu 5: Bên cánh phải của con bọ rùa có bao nhiêu chấm tròn?

A. 9 C. 4

B. 1 D. 5

Câu 6: Số chẵn lớn nhất có một chữ số là:

A. 10 B. 9 C. 8 D. 0

Câu 7: Số lẻ bé nhất có một chữ số là:

A. 0 B. 9 C. 1 D. 2

LIVEWORKSHEETS

Câu 8:

3 đếm thêm 4 được .....

Câu 9:

Từ 10 đếm lùi 5 bước còn .....

Câu 10: Đổi chỗ 2 hình nào để được sắp xếp từ lớn đến bé?

A. hình vuông và hình chữ nhật

B. hình tròn và hình tam giác

C. hình vuông và hình tam giác

D. hình tròn và hình chữ nhật

Câu 11: Hình tiếp theo là hình nào?

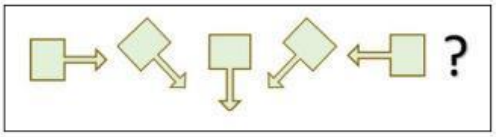

A.

B.

C.

D.

Câu 11: Tìm số điền vào dấu "?" biết các hàng, các cột đều xuất hiện các số từ 1 đến 4.

	3		2
		?	1
1	2		
		3	

Số cần điền vào dấu hỏi chấm là:.....

Câu 12: Nếu xếp chồng hai ô lưới như hình bên thì sẽ được hình nào dưới đây (biết rằng ô màu trắng là trong suốt)?

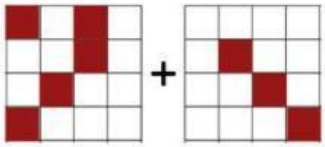

A. 

B. 

C.

D. 

LIVEWORKSHEETS