Nama: _____ Kelas: _____ Tarikh: _____

UNIT 2 : TAMBAH, TOLAK, DARAB DAN BAHAGI

U2-11

ADDITION, SUBTRACTION, MULTIPLICATION AND DIVISION

PBD 1 SK2.1 Tambah dalam Lingkungan 1 000

A Tambah. TP2

Add.

/6

1
```
  647
+  32
-----
```

2
```
  415
+ 206
-----
```

3
```
  183
+ 747
-----
```

4
```
  243
   12
+ 304
-----
```

5
```
  216
  150
+ 423
-----
```

6
```
  362
   28
+ 414
-----
```

B Tambahkan dalam bentuk lazim. TP1 TP3

Add in vertical form.

/4

1 216 + 509 = _____

2 668 + 142 = _____

3 109 + 326 + 471 = _____

4 225 + 89 + 531 = _____

TP1	Membaca ayat matematik yang melibatkan operasi asas.	Menguasai	Belum Menguasai
TP2	Menentukan dan menerangkan ayat matematik yang melibatkan operasi asas.	Menguasai	Belum Menguasai
TP3	Menyelesaikan ayat matematik dan menentukan kewajaran jawapan yang melibatkan operasi asas.	Menguasai	Belum Menguasai

SK2.1.1 Menambah dua nombor hasil tambah dalam lingkungan 1 000.

SK2.1.2 Menambah tiga nombor hasil tambah dalam lingkungan 1 000.

LIVEWORKSHEETS

Nama: _____ Kelas: _____ Tarikh: _____

UNIT 2 : TAMBAH, TOLAK, DARAB DAN BAHAGI
ADDITION, SUBTRACTION, MULTIPLICATION AND DIVISION

PBD 2 SK2.1 Tambah dalam Lingkungan 1 000

Selesaikan. TP1 TP2 TP3 *Solve.*

/9

1. 135 + 144 = _____ R
2. 152 + 538 = _____ H
3. 109 + 173 = _____ F
4. 263 + 125 = _____ E
5. 314 + 72 + 213 = _____ I
6. 325 + 4 + 255 = _____ Z
7. 456 + 35 + 274 = _____ A
8. 163 + 24 + 222 = _____ G

Siapakah saya?
Who am I?

Leher panjang unik sekali	*I have unique long neck*
Makan daun juga pucuk	*I eat leaves and shoot*
Bila diri sangat tinggi	*I am tall*
Badan cantik ada tompok	*My body has spots*

		R				
584	599	279	765	282	765	690

		R				
409	599	279	765	282	282	388

TP1	Membaca ayat matematik yang melibatkan operasi asas.	Menguasai	Belum Menguasai
TP2	Menentukan dan menerangkan ayat matematik yang melibatkan operasi asas.	Menguasai	Belum Menguasai
TP3	Menyelesaikan ayat matematik dan menentukan kewajaran jawapan yang melibatkan operasi asas.	Menguasai	Belum Menguasai

SP2.1.1 Menambah dua nombor hasil tambah dalam lingkungan 1 000.

SP2.1.2 Menambah tiga nombor hasil tambah dalam lingkungan 1 000.

LIVEWORKSHEETS

Nama: _____ Kelas: _____ Tarikh: _____

PBD 7 SK2.5 Penyelesaian Masalah

Selesaikan masalah. TP4
Solve the problems.

/4

1 Jadual menunjukkan bilangan kuih bulan dan biskut kacang.
The table shows the number of moon cakes and peanut biscuits.

Makanan *Food*	Kuantiti *Quantity*
Kuih bulan *Moon cake*	156
Biskut kacang *Peanut biscuit*	281

Kira jumlah kuih bulan dan biskut kacang.
Calculate the total number of moon cakes and peanut biscuits.

2 Rajah menunjukkan bilangan durian kepunyaan Akob. Dia menyusun durian itu sama banyak ke dalam 6 buah bakul. Berapakah bilangan durian di dalam setiap bakul?
The diagram shows the number of durians belongs to Akob. He arranges the durians into 6 baskets equally. What is the number of durians in each basket?



TP4 Menyelesaikan masalah harian yang rutin melibatkan operasi asas. Menguasai | Belum Menguasai

SP2.5.2 Menyelesaikan masalah tambah, tolak, darab dan bahagi yang melibatkan situasi harian.

LIVEWORKSHEETS

Nama: _____ Kelas: _____ Tarikh: _____

UNIT 2 : TAMBAH, TOLAK, DARAB DAN BAHAGI
ADDITION, SUBTRACTION, MULTIPLICATION AND DIVISION

PBD 8 SK2.5 Penyelesaian Masalah

Selesaikan masalah. TP5 TP6
Solve the problems.

KUIZ
rb.gy/6sydj3

/4

1 Husna ada 26 keping biskut. Dia memberi biskut itu sama banyak kepada 6 orang rakan. Dia menyimpan baki biskut disimpan. Berapakah bilangan biskut yang disimpan?
Husna has 26 biscuits. She gives the biscuits to 6 of her friends equally. She keeps the rest of the biscuits. What is the number of biscuits that she keep?



2 Ziqri membawa 56 biji gula-gula ke sekolah. Dia ingin berkongsi sama banyak dengan 7 orang rakan. Adakah dia akan mendapat 8 biji gula-gula?
Ziqri brings 56 sweets to school. He wants to share it with 7 of his friends equally. Does he get 8 sweets?

TP5	Menyelesaikan masalah harian yang rutin melibatkan operasi asas dengan pelbagai strategi.	Menguasai	Belum Menguasai
TP6	Menyelesaikan masalah harian yang bukan rutin melibatkan operasi asas secara kreatif dan inovatif.	Menguasai	Belum Menguasai

SP2.5.2 Menyelesaikan masalah tambah, tolak, darab dan bahagi yang melibatkan situasi harian.

LIVEWORKSHEETS

Nama: _____ Kelas: _____ Tarikh: _____

UNIT 3 : PECAHAN DAN PERPULUHAN
FRACTIONS AND DECIMALS

U3-23

PBD 1 SK3.1 Pecahan Wajar

Padankan. TP1 TP2
Match.

/4

$\frac{1}{4}$ •

$\frac{7}{10}$ •

$\frac{3}{4}$ •

$\frac{1}{2}$ •

$\frac{7}{9}$ •

$\frac{6}{9}$ •

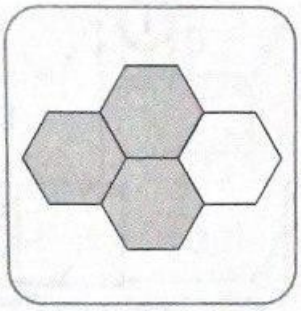

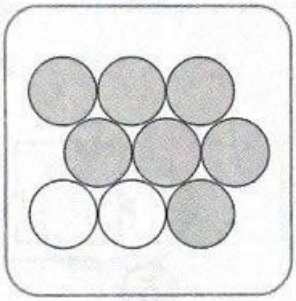





• tiga perempat
three over four

• tujuh persepuluh
seven over ten

• tujuh perlapan
seven over eight

• satu perdua
one over two

• tujuh persembilan
seven over nine

TP1	Menyatakan pecahan wajar dan perpuluhan.	Menguasai	Belum Menguasai
TP2	Mewakilkan gambar rajah bagi pecahan wajar dan perpuluhan yang diberi.	Menguasai	Belum Menguasai

SP3.1.1 Mengenal pasti dan menyebut pecahan wajar yang pengangkanya 1 dan penyebutnya hingga 10.
SP3.1.2 Menamakan pecahan wajar yang pengangkanya hingga 9 dan penyebutnya hingga 10.
SP3.1.3 Mewakilkan gambar rajah mengikut pecahan yang diberi.

LIVEWORKSHEETS

Nama: _____ Kelas: _____ Tarikh: _____

UNIT 3 : PECAHAN DAN PERPULUHAN
FRACTIONS AND DECIMALS

PBD 2 SK3.1 Pecahan Wajar

A Tulis pecahan wajar dalam angka dan perkataan. TP2
Write the proper fractions in numerals and words.

/5

Contoh



$\frac{1}{2}$ satu perdua *one over two*

1



2



3

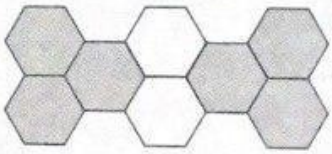

4

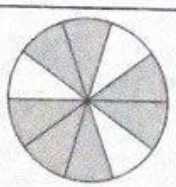

5

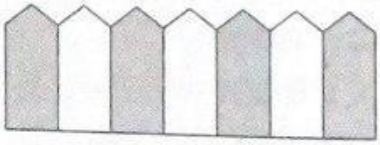

B Tulis "lebih besar daripada" atau "lebih kecil daripada". TP3
Write "larger than" or "smaller than".

/2

1



$\frac{3}{4}$ _____ $\frac{5}{8}$



2

$\frac{1}{5}$ _____ $\frac{2}{3}$

TP2 Menulis pecahan wajar dan perpuluhan.

TP3 Membandingkan dua nilai pecahan wajar, dua nilai perpuluhan dan nilai pecahan dengan nilai perpuluhan yang diberi.

Menguasai		Belum Menguasai	
Menguasai		Belum Menguasai	

SP3.1.4 Menulis pecahan wajar yang diberi.

SP3.1.5 Membanding nilai dua pecahan wajar yang diberi.

LIVEWORKSHEETS

Nama: _____ Kelas: _____ Tarikh: _____

UNIT 2 : TAMBAH, TOLAK, DARAB DAN BAHAGI
ADDITION, SUBTRACTION, MULTIPLICATION AND DIVISION

PBD 5 SK2.4 Bahagi dalam Lingkungan 1 000

A Tandakan (✓) jawapan yang betul. TP1
Tick (✓) the correct answers.

/4

1. 40 ÷ 4 ☐
   20 ÷ 5 ☐
   12 ÷ 3 ☐
   4

2. 18 ÷ 2 ☐
   35 ÷ 5 ☐
   27 ÷ 3 ☐
   9

3. 10 ÷ 2 ☐
   25 ÷ 5 ☐
   5 ÷ 5 ☐
   5

4. 15 ÷ 3 ☐
   6 ÷ 3 ☐
   20 ÷ 10 ☐
   2

B Selesaikan. TP2 TP3
Solve.

/3

Contoh

38 ÷ 6 = 6 baki/ *remainder* 2

```
      6
6 ) 3 8
  - 3 6
      2 baki/ remainder
```

1. 25 ÷ 4 = _____

2. 29 ÷ 3 = _____

3. 70 ÷ 8 = _____

TP1	Membaca ayat matematik yang melibatkan operasi asas.	Menguasai ☐	Belum Menguasai ☐
TP2	Menentukan dan menerangkan ayat matematik yang melibatkan operasi asas.	Menguasai ☐	Belum Menguasai ☐
TP3	Menyelesaikan ayat matematik dan menentukan kewajaran jawapan yang melibatkan operasi asas.	Menguasai ☐	Belum Menguasai ☐

SP2.4.1 Membahagi dalam lingkungan fakta asas.
SP2.4.2 Membahagi sebarang nombor dua digit dengan 10.

LIVEWORKSHEETS

Nama: _____ Kelas: _____ Tarikh: _____

UNIT 2 : TAMBAH, TOLAK, DARAB DAN BAHAGI
ADDITION, SUBTRACTION, MULTIPLICATION AND DIVISION

PBD 6 SK2.5 Penyelesaian Masalah

Lengkapkan tempat kosong. TP1 TP4
Complete the blanks.

/6

1



$12 \div 3 = 4$

Ada [ ] sandwic. Muna menyusun [ ] di atas pinggan. Jadi, ada [ ] pinggan sandwic.

There are [ ] sandwiches. Muna arranges [ ] on the plate. So, there are [ ] plates of sandwiches.

2

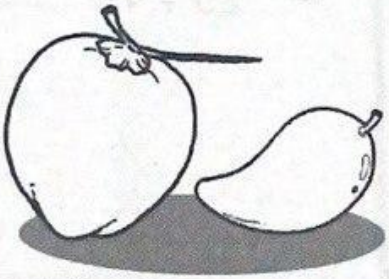

$143 + 117 = 260$

Encik Johari menjual [ ] biji kelapa dan [ ] biji mangga. Jumlah jualan ialah [ ] biji.

Encik Johari sells [ ] coconuts and [ ] mangoes. The total number of sales is [ ].

TP1	Membaca ayat matematik yang melibatkan operasi asas.	Menguasai	Belum Menguasai
TP4	Menyelesaikan masalah harian yang rutin melibatkan operasi asas.	Menguasai	Belum Menguasai

SP2.5.1 Mereka cerita masalah tambah, tolak, darab dan bahagi dalam lingkungan 1 000.

LIVEWORKSHEETS

Nama: _____ Kelas: _____ Tarikh: _____

UNIT 3 : PECAHAN DAN PERPULUHAN
FRACTIONS AND DECIMALS

PBD 4 SK3.2 Perpuluhan

Tulis perpuluhan dalam angka dan perkataan. TP2 /6
Write decimals in numerals and words.

Contoh

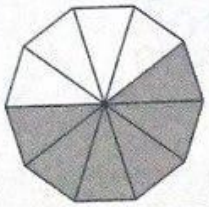

0.6

sifar perpuluhan enam
zero point six

1

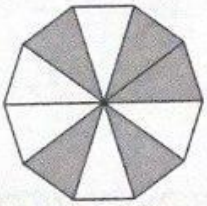

2

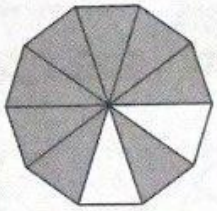

3



4



5

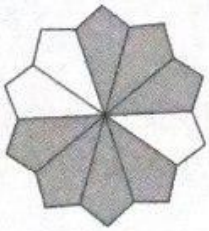

6

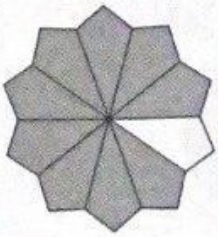

TP2 Menulis pecahan wajar dan perpuluhan.

Menguasai | Belum Menguasai

SP 3.2.5 Menulis perpuluhan yang diberi

LIVEWORKSHEETS