ใบงาน: การแรเงาแผนภาพเวนน์ออยเลอร์

คำชี้แจง: ให้นักเรียนโยงเส้นจับคู่แผนภาพเวนน์-ออยเลอร์ทางซ้าย กับเซตที่กำหนดให้ทางขวาให้ถูกต้อง

แผนภาพเวนน์-ออยเลอร์ (ภาพ)

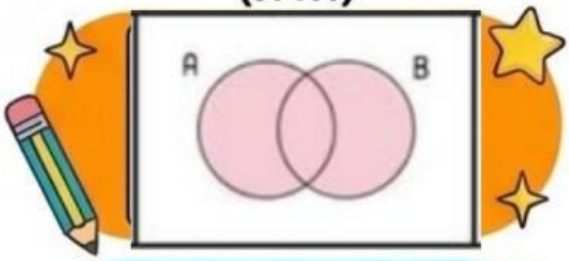

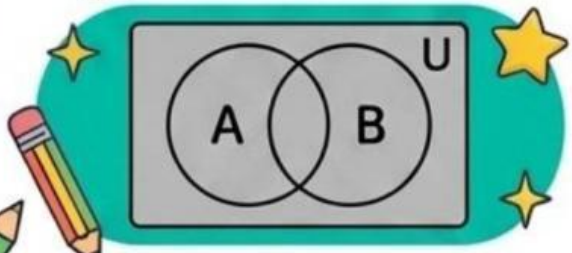

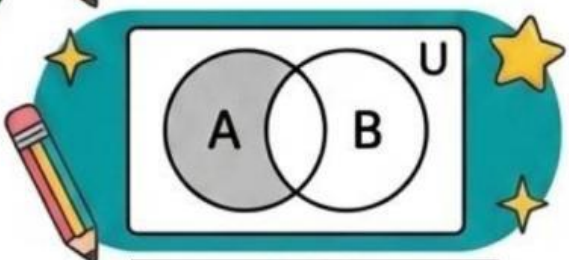

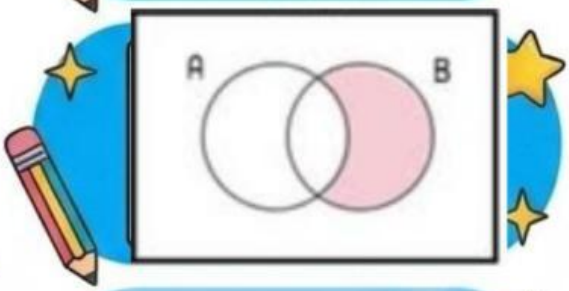

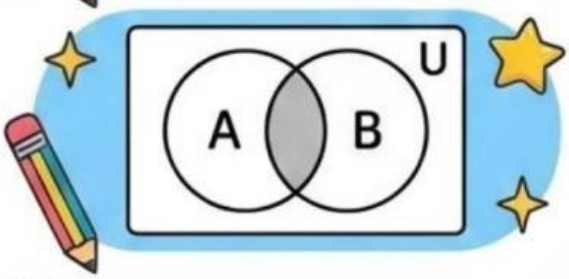

เซตที่กำหนดให้ (ตัวอักษร)

A เซต A-B

B เซต A ∪ B

C เอกภพสัมพัทธ์ U

D เซต A ∩ B

E เซต B-A

ชื่อ: _____ ชั้น: _____ เลขที่: _____

LIVEWORKSHEETS

ใบงาน: การแรเงาแผนภาพเวนน์ออยเลอร์

คำชี้แจง: ให้นักเรียนโยงเส้นจับคู่แผนภาพเวนน์-ออยเลอร์ทางซ้ายกับเซตที่กำหนดให้ทางขวาให้ถูกต้อง

แผนภาพเวนน์-ออยเลอร์ (ภาพ)

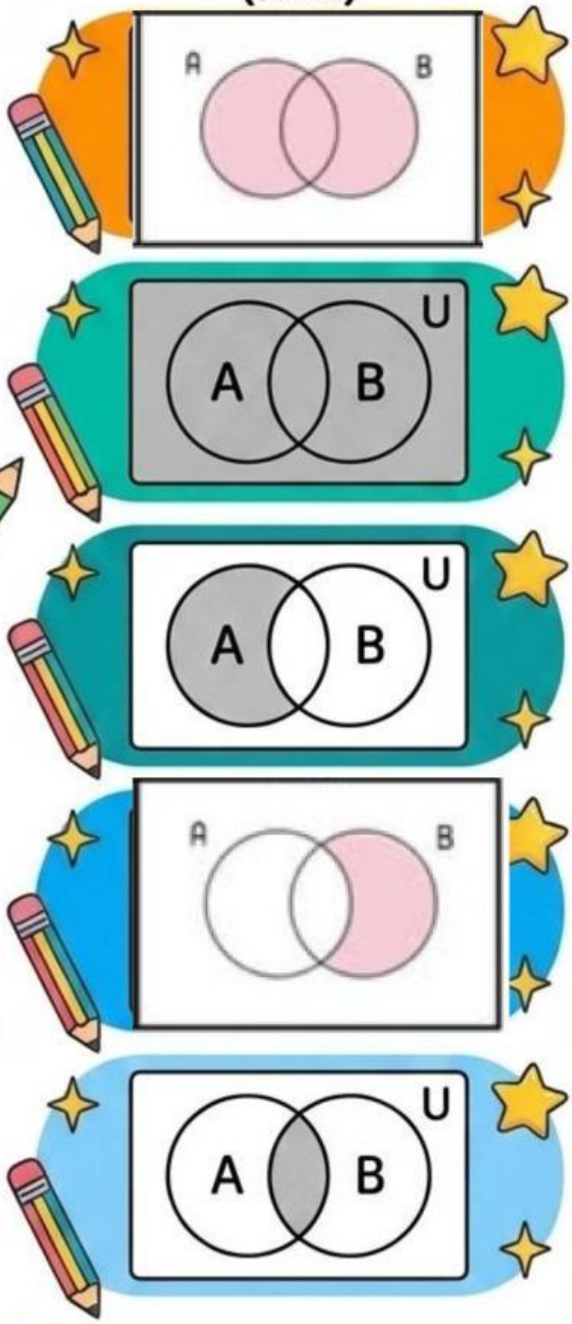

เซตที่กำหนดให้ (ตัวอักษร)

- **A** เซต A-B
- **B** เซต A ∪ B
- **C** เอกภพสัมพัทธ์ U
- **D** เซต A ∩ B
- **E** เซต B-A

ชื่อ: _____ ชั้น: _____ เลขที่: _____

LIVEWORKSHEETS