## اختبار العمليات الحسابية للاعداد الصحيحة

**الاسم الثلاثي: الاء سيف السليماني** **الرقم الجامعي:13009859**

---

1. ما هو ناتج العملية الحسابية التالية 12-×5- =

أ. -17 ب. 60 ج. 17 د. –60

2. وصل العملية بالناتج الصحيح




3.صل الاشارة المناسبة للاسئلة التالية :

LIVEWORKSHEETS

4. في الجدول ادناه حدد الاتي:

أ. حدد مضاعفات العدد3

ب. احد اعمدة الجدول جميع الاعداد فيه اعداد اولية ، حدد هذا العمود

الاعمده

| | | | | | |
|---|---|---|---|---|---|
| ٦ | ٥ | ٤ | ٣ | ٢ | ١ |
| ١٢ | ١١ | ١٠ | ٩ | ٨ | ٧ |
| ١٨ | ١٧ | ١٦ | ١٥ | ١٤ | ١٣ |
| ٢٤ | ٢٣ | ٢٢ | ٢١ | ٢٠ | ١٩ |
| ٣٠ | ٢٩ | ٢٨ | ٢٧ | ٢٦ | ٢٥ |

5. اكمل شجرة العوامل

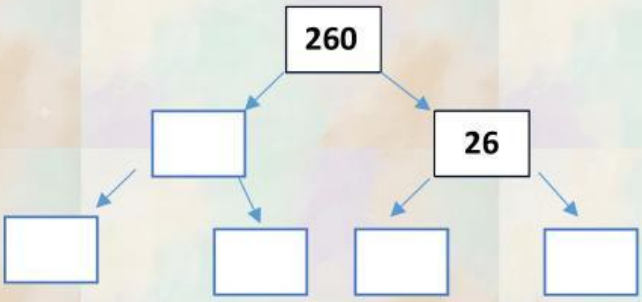


6. اكمل مضاعفات العدد 8

8،16،24،32،40 ، .....،.....،.....

7. اي من الاعداد التالية ليس عدد اولي:

LIVEWORKSHEETS

8. اي من المعادلات الاتية ناتجها يساوي 5 ؟

أ. $١٠٠ - (٢٥ - ١٧)^{٢}$

ب. $١٥ \times ٣ \div (٧ - ٤)^{٢}$

ج. $٤ \times ٢ + ٥ \times ٣$

د. $٣٥ - ١٥ \div ٣$

9.صل كل عربة بالصنوق الذي يحتوي الناتج الصحيح لها:

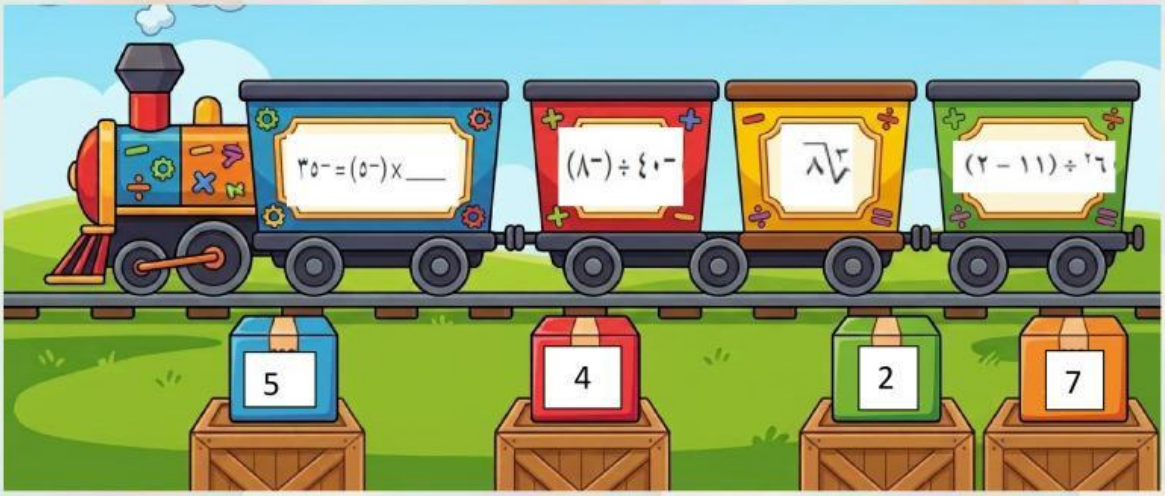


10.اكتب ما تعرفة عن الاعداد الاولية حسب فهمك

LIVEWORKSHEETS

11.كم عدد من الاعداد الاولية محصورة بين 20-40؟

أ. 3

ب.4

ج.5

د.6

12.صل كل عدد بعوامله الاولية

| | |
|---|---|
| 24 | $5^2 \times 2$ |
| 42 | $5 \times 3^2 \times 2^2$ |
| 50 | $3 \times 2^3$ |
| 180 | $7 \times 3 \times 2$ |

13.اضغط على صورة للانتقال الى لعبة التعليمية

14.في القسمة ، الإشارات الاعداد مختلفة ،يكون الناتج عددا موجبا؟

15.اكتب الناتج العدد للسزال الذي تسمعه :

LIVEWORKSHEETS