TKA MATEMATIKA ABK

Nama : _____ Kelas : _____ Tanggal : _____

1 Nilai yang paling besar adalah....

$\frac{1}{2}$ A $\frac{1}{4}$ B $\frac{3}{4}$ C

2 Pecahan yang sama nilainya dengan $\frac{1}{2}$ adalah....



$\frac{2}{4}$ A $\frac{1}{3}$ B $\frac{3}{4}$ C

3 Bentuk desimal dari $\frac{1}{2}$ adalah....

A 0,2 B 0,5 C 0,8

4 6 × 4 = ...

A 20
B 24
C 28

5 Rani membeli 2 kg mangga dan 3 kg jeruk.
Berat semua buah adalah....

A 4 kg
B 5 kg
C 6 kg

6 Andi mulai belajar pukul 07.00.
Ia belajar selama 1 jam.
Andi selesai belajar pukul....

A 07.30 B 08.00 C 09.00

7 Bangun datar yang mempunyai 4 sisi sama panjang adalah....



A B C

8 Kubus mempunyai .... sisi.

A 4
B 6
C 8

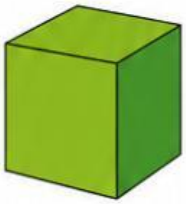

9 Perhatikan data berikut.

Apel	Pisang	Anggur
= 5 anak	= 3 anak	= 2 anak

Buah yang paling banyak disukai adalah....

A Apel B Pisang C Anggur

10 Budi mempunyai 10 pensil.
Ia memberikan 4 pensil kepada temannya.
Sisa pensil Budi adalah....

A 5 B 6 C 7

LIVEWORKSHEETS