Hành trang số
Hỏi Gemini
hanhtrangso.nxbgd.vn/ebook/read/toan-4-tap-mot-11384
Thoát
Toán 4 - Tập một

Bài 32

LUYỆN TẬP CHUNG

Luyện tập

1 Chọn câu trả lời đúng.

Việt có 4 miếng dán như sau:

Biết Việt dán hình bình hành sau khi dán hình vuông và trước khi dán hình tam giác. Hỏi hình nào dưới đây là sản phẩm của Việt?

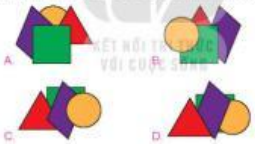

2 Quan sát hình sau, hãy chỉ ra:

a) Hai đoạn thẳng song song với nhau.

b) Hai đoạn thẳng vuông góc với nhau.

3 a) Vẽ đường thẳng AB và điểm H không nằm trên đường thẳng AB (theo mẫu).



b) Vẽ đường thẳng CD đi qua điểm H và vuông góc với đường thẳng AB.

c) Vẽ đường thẳng EG đi qua điểm H và song song với đường thẳng AB.

4 Lấy các que tính xếp thành hình bên. Di chuyển 2 que tính để được 2 hình thoi.

Luyện tập

1 Đ, S ?

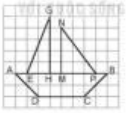

Trong hình trên có:

a) Đoạn thẳng MP song song với đoạn thẳng DC. ?

b) Đoạn thẳng AP song song với đoạn thẳng DC. ?

c) Đoạn thẳng MN vuông góc với đoạn thẳng NP. ?

d) Đoạn thẳng GH vuông góc với đoạn thẳng AB. ?

Mục lục
110 - 111
Search
LIVEWORKSHEETS