TUGAS MANDIRI MATEMATIKA KELAS 3 A

Rabu, 24 Maret 2021

A. Pilihlah jawaban yang benar dengan cara mengklik salah satu opsi!

1. 

   Keliling bangun datar yang bergaris hitam di atas adalah ...

   a. 15 persegi satuan b. 16 persegi satuan c. 17 persegi satuan

2. 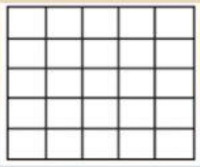

   Keliling bangun datar di atas adalah ...

   a. 23 persegi satuan b. 22 persegi satuan c. 20 persegi satuan

3. Buatlah garis sesuai dengan jawaban yang benar!

   a. 12 cm

   b. 10 cm

   c. 16 cm

   a.

   b. 

   c. 

4. Pilihlah keliling bangun di bawah ini pada kotak yang bewarna biru!

   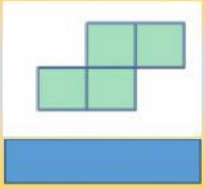

   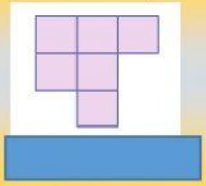

5. Tarik gambar bangun datar di bawah ke kotak yang bewarna kuning sesuai jawaban yang benar!

   a. Bangun datar yang kelilingnya adalah 16 cm

   b. Bangun datar yang kelilingnya adalah 12 cm

   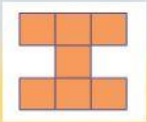

   c. Bangun datar yang kelilingnya adalah 14 cm

   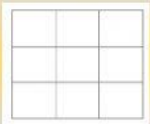

LIVEWORKSHEETS