แบบวัดทักษะการจำแนกประเภท

คำชี้แจง ให้นักเรียนเลือกคำตอบที่ถูกต้อง เพียงข้อเดียว

1. จากภาพข้อใด ไม่เข้าพวก

ก.

ข. 

ค. 

ง. 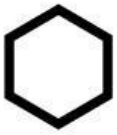

2. แก้วต้องการต่อตัวต่อให้เป็นรูปภาพ โดยนำตัวต่อมาวางต่อกัน ถ้าต่อเข้ากันไม่ได้ ก็เปลี่ยนตัวต่อชิ้นใหม่ แก้วใช้วิธีแก้ปัญหาแบบใด

ก. ลองผิดลองถูก ข. การเปรียบเทียบ ค. การใช้สัญลักษณ์ ง. การทดลอง

3. หากนักเรียนมีหน้าที่จัดเก็บรองเท้าของทุกคนในบ้าน นักเรียนควรเลือกใช้วิธีการใดในการจัดการกับรองเท้าที่วางระเกะระกะอยู่หน้าบ้าน

ก. ลองผิดลองถูก ข. การเปรียบเทียบ ค. การใช้สัญลักษณ์ ง. การทดลอง

4. ลูกบอล ตุ๊กตา ม้าหมุน หากใช้เกณฑ์การจำแนกประเภท ควรจัดอยู่ในกลุ่มใด

ก. ของใช้ ข. เครื่องนุ่งห่ม

ค. ของเล่น ง . เครื่องครัว

5. จากรูป ข้อใดแตกต่างจากพวกมากที่สุด

ก.

ข.

ค.

ง.

6. จากรูป ข้อใดแตกต่างจากพวกมากที่สุด

ก.

ข.

ค.

ง.

LIVEWORKSHEETS

7. โอปอ จัดกลุ่ม สารเหล่านี้ ได้แก่ ผงชูรส น้ำตาล เกลือ พริกไทย โดยใช้เกณฑ์ใด

ก. ของแข็ง

ข. ของเหลว

ค. การละลาย

ง. แก๊ส

8. ในการจัดกลุ่ม สุนัข แมว ปลาหางนกยุง กระต่าย ไว้ด้วยกัน ใช้เกณฑ์ในข้อใด

ก. สัตว์บก

ข. สัตว์ปีก

ค. สัตว์เลี้ยง

ง. สัตว์น้ำ

9. ต้น จัดกลุ่ม สารเหล่านี้ ได้แก่ น้ำอัดลม น้ำมัน น้ำเชื่อม โดยใช้เกณฑ์ใด

ก. ของแข็ง

ข. ของเหลว

ค. การละลาย

ง. แก๊ส

10. ต้น จัดกลุ่ม สารเหล่านี้ ได้แก่ แก๊สไนโตรเจน ควัน ไอน้ำ โดยใช้เกณฑ์ใด

ก. ของแข็ง

ข. ของเหลว

ค. การละลาย

ง. แก๊ส

LIVEWORKSHEETS