PERTEMUAN 2

LEMBAR KERJA MURID

IPAS

SISTEM PERNAPASAN MANUSIA

Nama :

LIVEWORKSHEETS

Capaian Pembelajaran

1. Merefleksikan sistem organ tubuh manusia yang dikaitkan dengan cara menjaga kesehatan tubuhnya
2. Mengamati fenomena dan peristiwa secara sederhana, mencatat hasil pengamatannya, serta mencari persamaan dan perbedaannya. Mengomunikasikan hasil kerja kelompok

Tujuan Pembelajaran

1. Merefleksikan sistem organ tubuh manusia yang dikaitkan dengan cara menjaga kesehatan tubuhnya
2. Mengamati fenomena dan peristiwa secara sederhana, mencatat hasil pengamatannya, serta mencari persamaan dan perbedaannya
3. Mengomunikasikan hasil kerja kelompok tentang sistim organ tubuh manusia

Alur Tujuan Pembelajaran

1. Menjelaskan sistem organ tubuh manusia
2. Menjelaskan bagian-bagian organ pernapasan pada manusia.
3. Mengurutkan proses pernapasan manusia dengan tepat.
4. Mengomunikasikan hasil kerja kelompok tentang sistim organ pernapasan manusia

Petunjuk Belajar

1. Berdoalah sebelum memulai mengerjakannya
2. Lengkapi nama kelompok pada kolom yang sudah disediakan
3. Bacalah dengan cermat setiap petunjuk
4. Jika terjadi kesulitan bertanya kepada guru
5. Periksa hasil pekerjaan sebelum diserahkan ke guru

LIVEWORKSHEETS

VIDEO PEMBELAJARAN

https://youtu.be/AKW3Zen8DD4?si=1z3s-Tg9SPEygFny

LIVEWORKSHEETS

pasangkanlah nama nama sistem pernapasan manusia ini dengan fungsinya dengan benar!


Bronkiolus

Faring

Trakea

Hidung


Bronkus

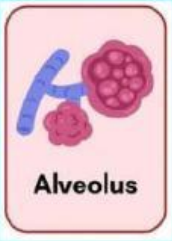
Alveolus

Diafragma

Laring

Otot yang akan berkontraksi dan berileksasi agar rongga dada mengembang atau mengempis ketika bernapas.

Menghubungkan rongga hidung dan rongga mulut dengan laring sehingga menjadi jalan masuk yang dilewati udara maupun makanan.

Cabang dari bronkus yang menjadi saluran-saluran yang lebih kecil dan lebih banyak di dalam paru-paru

Membawa udara dari trakea ke paru-paru.

Tempat pertukaran oksigen dengan karbondioksida di dalam paru-paru.

Memiliki epiglotis untuk mencegah makanan masuk ke saluran pernapasan dengan cara menutup jalan masuk ke trakea.

Menghubungkan laring dengan bronkus dan mendorong keluar debu dan otoran yang lolos dari hidung.

Menyaring debu, kotoran, dan kuman yang terhirup bersama udara, melembabkan udara agar tidak terlalu dingin saat masuk ke paru-paru, menghangatkan udara yang dihirup agar sesuai dengan suhu tubuh.

LIVEWORKSHEETS

GAMBAR DI SAMPING FUNGSINYA ADALAH ?

.....

.....

.....

.....

.....

.....

.....

.....

.....

.....

.....

GAMBAR DI SAMPING FUNGSINYA ADALAH ?

.....

.....

.....

.....

.....

.....

.....

.....

GAMBAR DI SAMPING FUNGSINYA ADALAH ?

.....

.....

.....

.....

.....

.....

.....

.....

LIVEWORKSHEETS