Menebalkan Angka 1-10

Ayo tebalkan angka mengikuti garis titik-titik dengan rapi.

1	1	1	1	1	1
2	2	2	2	2	2
3	3	3	3	3	3
4	4	4	4	4	4
5	5	5	5	5	5
6	6	6	6	6	6
7	7	7	7	7	7
8	8	8	8	8	8
9	9	9	9	9	9
10	10	10	10	10	10

Nama: Tanggal:

LIVEWORKSHEETS

TARIKLAH SEBUAH GARIS

Tariklah sebuah garis mengikuti urutan angkanya!



LIVEWORKSHEETS

MENARIK GARIS DAN MEWARNAI

Tariklah sebuah garis sesuai urutan angka kemudian berilah warna!

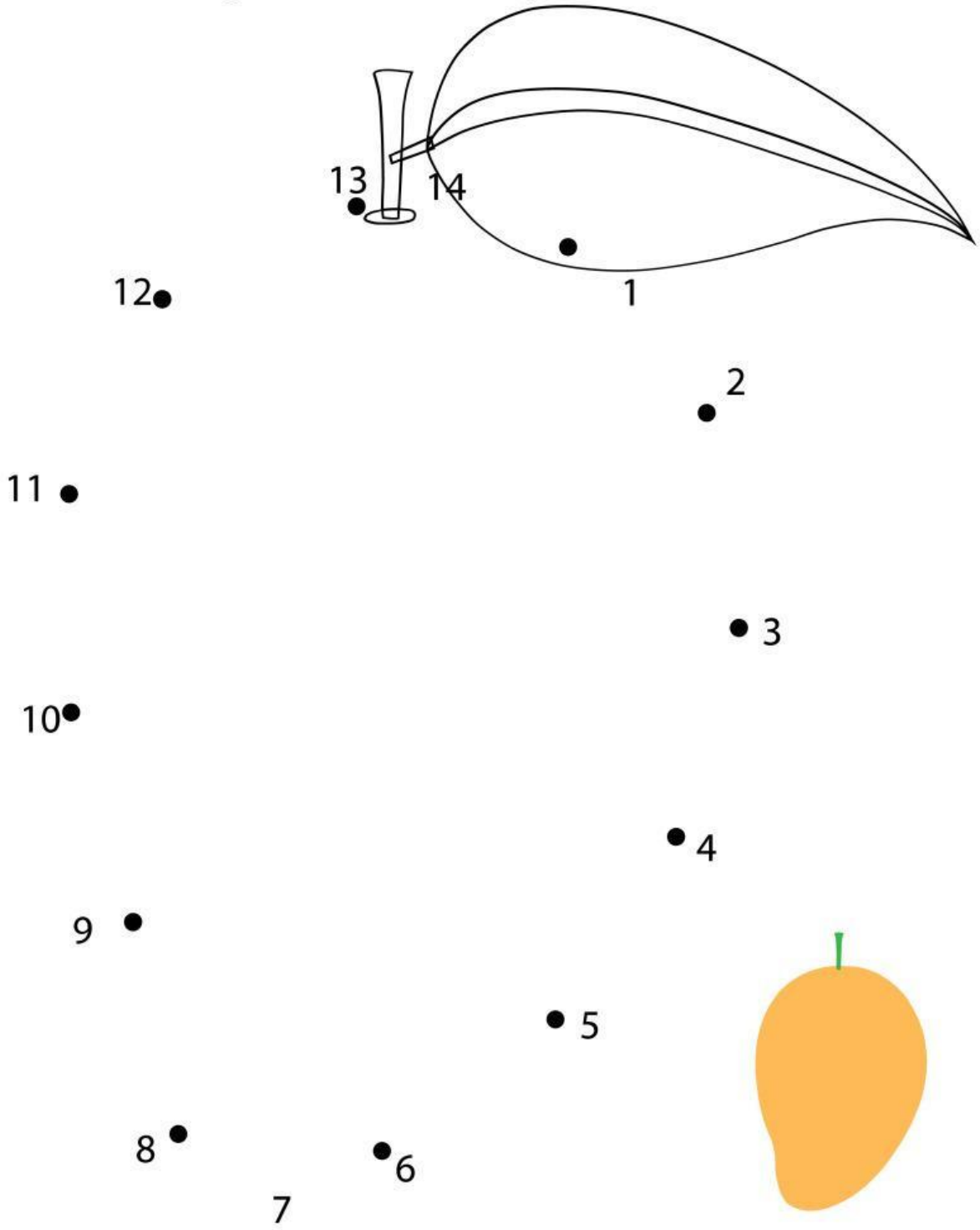

LIVEWORKSHEETS

Nama: Kelas:

Menulis Angka

Tulislah angka yang hilang pada gambar sesuai urutannya.



LIVEWORKSHEETS

Nama : _____

Mencocokkan

Hitunglah berapa jumlah benda yang ada di kotak kemudian tarik garis semua dengan angkanya

• • 2

• • 3

• • 4



• • 5

LIVEWORKSHEETS

Nama : Kelas :

ASESMEN DIAGNOSTIK

Jawablah pertanyaan di bawah ini!

5+3=

1+3=

2+6=

4+5=

1+9=

7+1=

2+2=

3+3=

2+0=

LIVEWORKSHEETS

Nama : .....

Kelas : .....

Mana yang Lebih Banyak?

Hitung dan beri tanda centang (v) untuk jumlah buah yang lebih banyak.



LIVEWORKSHEETS