수학 4-1	1. 큰 수 ~ 2. 각도	초등학교 학년 반 번 이름:

1 빈칸에 알맞은 수를 써넣으세요.

6000	7000	
9000		

2 색종이를 한 상자에 1000장씩 70상자에 담았습니다. 70상자에 담은 색종이는 모두 몇 장인가요? ····· ( )

① 700장 ② 7000장 ③ 70000장
④ 700000장 ⑤ 7000000장

3 십만을 나타내는 수는 어느 것인가요? ( )

① 1000이 10개인 수
② 10000의 100배인 수
③ 10000의 1000배인 수
④ 10000이 10개인 수
⑤ 10000000

4 백만의 자리 숫자가 나머지와 <u>다른</u> 하나는 어느 것인가요? ····· ( )

① 18450000 ② 8015230
③ 7842100 ④ 38495200
⑤ 28492000

5 관계있는 것끼리 이어 보세요.

500만이 100개인 수	•	• 5억
5000만이 1000개인 수	•	• 50억
5억이 10개인 수	•	• 500억

6 밑줄 친 숫자가 나타내는 값을 써 보세요.

(1) 5<u>6</u>23000000
➜ ( )

(2) 4<u>3</u>678000000
➜ ( )

7 설명하는 수를 쓰고, 읽어 보세요.

조가 259개, 억이 1300개인 수

쓰기 ( )
읽기 ( )

8 ㉠에 알맞은 수는 얼마인가요? ····· ( )

㉠		
470조	475조	480조

① 465조 ② 460조 ③ 455조
④ 450조 ⑤ 445조

9 두 수의 크기를 비교하여 ○ 안에 > 또는 <를 알맞게 써넣으세요.

(1) 1348000 ○ 10243000

(2) 3064896000 ○ 3064450000

10 더 큰 수의 기호는 무엇인지 풀이 과정을 쓰고, 답을 구해 보세요.

㉠ 29404982600000 ㉡ 2□300548262000

<답> _____

LIVEWORKSHEETS

11 각의 크기가 더 큰 각의 기호를 쓰세요.

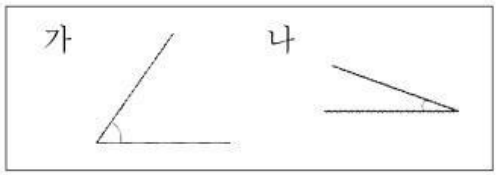

(　　)

12 각도를 재어 보세요.

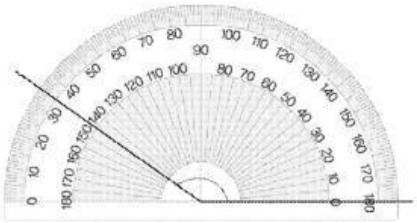

(　　)°

13 예각은 어느 것인가요? ····· (　　)

① 90°　② 35°　③ 120°
④ 110°　⑤ 180°

14 도형에서 둔각은 모두 몇 개인가요? ·· (　　)

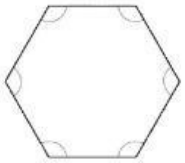

① 2개　② 3개　③ 4개
④ 5개　⑤ 6개

15 시계의 긴바늘과 짧은바늘이 이루는 작은 쪽의 각이 예각이면 '예', 둔각이면 '둔'을 써넣으세요.

(1)



(　　)

(2)

(　　)

16 각도를 어림해 보세요.

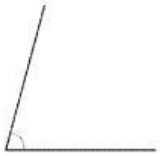

어림한 각도: 약 □°

17 두 각도의 합이 가장 큰 것은 어느 것인가요? · ····· (　　)

① 110°, 25°　② 60°, 65°　③ 75°, 100°
④ 80°, 100°　⑤ 105°, 45°

18 ㉠과 ㉡의 각도의 합은 얼마인가요? ·· (　　)

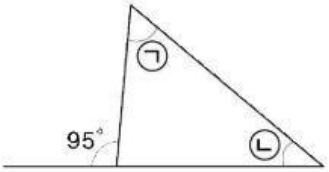

① 95°　② 105°　③ 115°
④ 120°　⑤ 125°

19 □ 안에 알맞은 수를 써넣으세요.

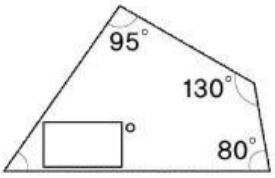

20 ㉠과 ㉡의 각도의 합은 얼마인지 풀이 과정을 쓰고, 답을 구해 보세요.

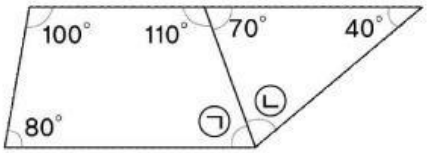

<풀이 과정> _____

_____

<답> _____°

LIVEWORKSHEETS