الاسم: ..... التاريخ: / / ٢٠٢٦

رِحْلَة مَعَ السَّاعَة:

الصف الثاني

السؤال الأول أكتُب الوقت الذي تُشير إليه كُل ساعة.

.....

.....

.....

السؤال الثاني: أرسم عقارب الساعة لتشير إلى الوقت المطلوب.



الساعة الثامنة وخمسة عشر دقيقة



الساعة الخامسة والنصف



الساعة السابعة

السؤال الثالث: أصِلُ بين السلوك بالوقت المناسب له.

وقت اللعب

وقت النوم

وقت الغداء

LIVEWORKSHEETS