Họ và tên: ..... Lớp: ..... Ngày: ..... / ..... / 20.....

PHIẾU BÀI TẬP TOÁN LỚP 4

ÔN TẬP: PHÉP NHÂN – PHÉP CHIA

Em hãy đọc kĩ đề bài, suy nghĩ và làm bài.

1 Cho các số sau:

65 237 | 63 794 | 66 053 | 59 872

a) Trong các số trên, số nào là số chẵn, số nào là số lẻ?

.....

b) Viết các số trên theo thứ tự từ bé đến lớn. .....

c) Làm tròn số bé nhất trong các số trên đến hàng chục. .....

d) Làm tròn số lớn nhất trong các số trên đến hàng chục nghìn. .....

.....

2 Đặt tính rồi tính.

63 758 – 5 364	37 429 + 49 235	8 107 × 9	43 652 : 7
.....	.....	.....	.....
.....	.....	.....	.....
.....	.....	.....	.....
.....	.....	.....	.....
.....	.....	.....	.....

3 Giá trị của mỗi biểu thức dưới đây là số tiền tiết kiệm (đồng) của mỗi bạn.
Hỏi bạn nào có nhiều tiền tiết kiệm nhất?



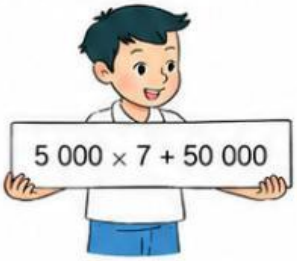

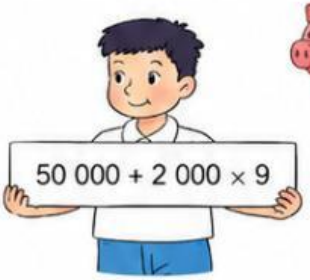

Trả lời: .....

.....

4 Một trận đấu bóng đã có 37 636 khán giả vào sân xem trực tiếp, trong đó có 9 273 khán giả nữ.
Hỏi số khán giả nam nhiều hơn số khán giả nữ bao nhiêu người?

Bài giải:

.....

.....

.....

.....

Học hết sức – Làm hết mình – Chắc chắn sẽ thành công!

LIVEWORKSHEETS