ใบงาน 6.1

เรื่อง สารประกอบคาร์บอนในสิ่งมีชีวิต

ชื่อ-สกุล.....ชั้น.....เลขที่.....

คำชี้แจง : ให้นักเรียนตอบคำถามต่อไปนี้ให้ถูกต้อง

1.จงเติมคำตอบในตารางให้ถูกต้อง

โครงสร้าง	ชื่อหมู่ฟังก์ชัน	ตัวอย่างของแหล่งที่พบ
—OH		
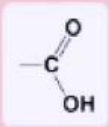		
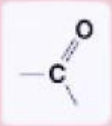		
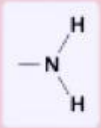		
—SH		
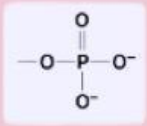		

LIVEWORKSHEETS

ใบงาน 6.1

เรื่อง สารประกอบคาร์บอนในสิ่งมีชีวิต

ชื่อ-สกุล.....ชั้น.....เลขที่.....

คำชี้แจง : ให้นักเรียนตอบคำถามต่อไปนี้ให้ถูกต้อง

2.พิจารณาสูตรโครงสร้างเคมีที่กำหนดให้ แล้วระบุชื่อหมู่ฟังก์ชัน (Functional group)

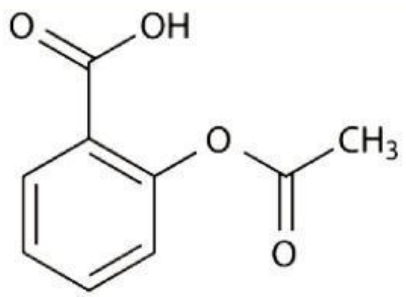

รูปที่ 1 โครงสร้างของแอสไพริน[3]

3.จงเติมชื่อของสาร สารชีวโมเลกุล หรือโครงสร้างที่ปรากฏในตารางให้ถูกต้อง

		ตัวอย่างองค์ประกอบภายในเซลล์
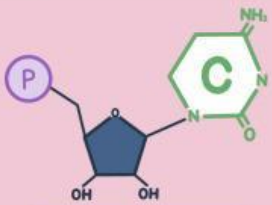		
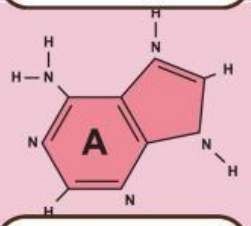		
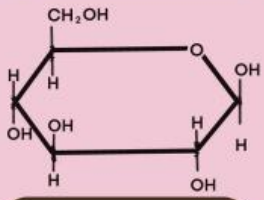		

LIVEWORKSHEETS