Lembar Kerja Peserta Didik

LKPD

ILMU PENGETAHUAN ALAM

Nama : .....

Kelas : .....

LIVEWORKSHEETS

Nama: Kelas:

LATiHAN SOAL

Perhatikan soal dibawah, lalu beri tanda silang(x) pada jawaban yang benar.

Perhatikan gambar di bawah ini !



Hewan di samping hidup di...

- ◯ Udara
- ◯ Air
- ◯ Tanah

Perhatikan gambar di bawah ini !

Tumbuhan membutuhkan _ untuk tumbuh...

- ◯ Es krim
- ◯ Mainan
- ◯ Air

Perhatikan gambar di bawah ini !

Bagian tumbuhan yang berada di dalam tanah adalah...

- ◯ Daun
- ◯ Akar
- ◯ Bunga

LIVEWORKSHEETS

ISI DENGAN TEPAT!

Nama : _____ Kelas : _____

Lengkapi Kalimat SDA!

Isi titik-titik di bawah dengan jawaban yang benar!



Tumbuhan hijau membuat makanan dengan bantuan cahaya?

_____

Animals yang makan tumbuhan disebut hewan?

_____



Ikan bernafas menggunakan?

_____

LIVEWORKSHEETS

Nama : Kelas :

MENJODOHKAN

Tariklah garis untuk menjodohkan dua suku kata agar menjadi kata yang sesuai dengan gambar!

ku	nga
ay	da
ka	tak
si	am
ul	ar

LIVEWORKSHEETS

MENGELOMPOKKAN HEWAN DAN TUMBUHAN

NAMA : KELAS :

PETUNJUK : Kelompokkan berdasarkan jenisnya!
Potong gambar dibawah lalu tempel sesuai dengan jenisnya!

TANAMAN	HEWAN

LIVEWORKSHEETS