சரியான விடையை (✓) செய்க.

1. தட்டையான முகங்களைக் கொண்ட பொருள் எது?

2. வளைவான முகத்தை மட்டும் கொண்ட பொருள் எது?



3. –இன் நிழல் வடிவம் எது?

4. –ஐ அச்சுப் பதித்தால் கிடைக்கும் வடிவம் எது?

5. நேர் விளிம்பு இல்லாத வடிவம் எது?

6. அனைத்துப் பக்கங்களும் சமமாக உள்ள வடிவம் எது?

நீளத்தை அளவிட உதவும் பொருத்தமான அளவையை (✓) செய்க.

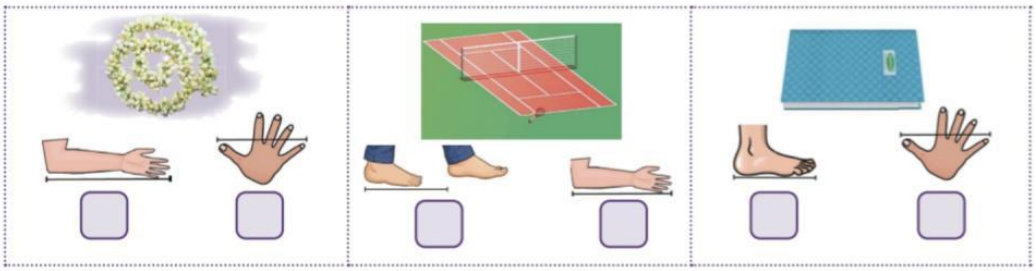

பொருத்தமான குறியீடுகளைக் ↓ ↑ கொண்டு நிரப்புக.

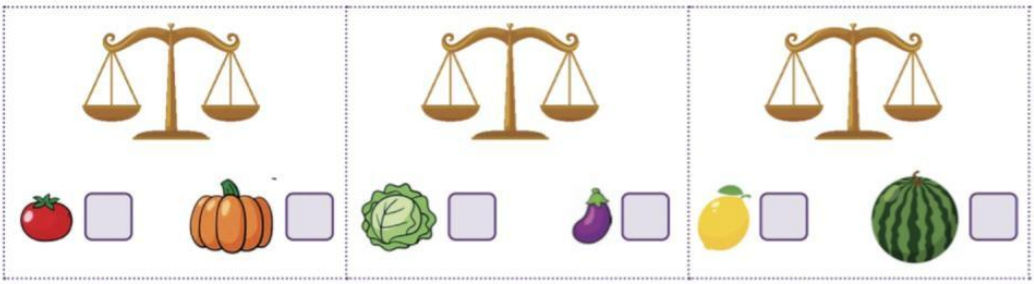

எந்த பொருத்தமான பாத்திரத்தைக் கொண்டு விரைவாக நீரை நிரப்புவாய் என (✓) செய்க.

LIVEWORKSHEETS