LKPD
Matematika

membandingkan panjang, berat dan durasi waktu

Nama: _____

Kelas: _____

LIVEWORKSHEETS

Alat Ukur

Hubungkan gambar di bawah ini dengan fungsinya yang sesuai.

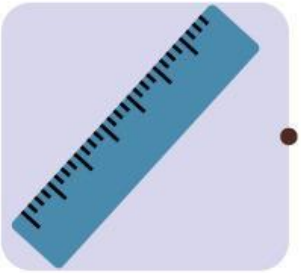

- Alat Ukur Panjang
- Alat Ukur Berat

LIVEWORKSHEETS

Mengukur Panjang

Tulislah panjang benda pada tabel di bawah ini.

No.	Pengukuran Panjang Benda	Panjang benda dengan satuannya.
1.		
2.	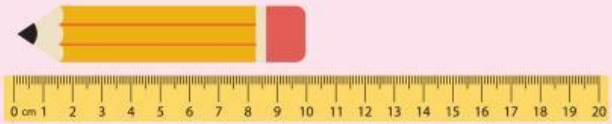	
3.		
4.	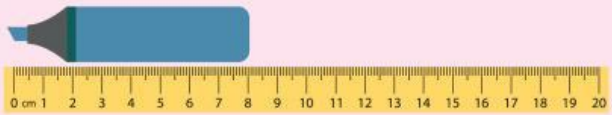	
5.		
6.		
7.		

LIVEWORKSHEETS

Menghitung Berat

Hitunglah penjumlahan berat buah di bawah ini.

+

= _____

+

= _____

+



= _____

+

= _____

LIVEWORKSHEETS

Menentukan Waktu

Amati gambar dan buat jarum jam dengan tepat

Ayah berangkat kerja pada jam enam lewat tiga puluh menit pagi.

06.30

Dodi dan Rudi bermain pada jam tiga lewat empat puluh lima menit sore.

Upacara bendera di sekolah dimulai pada jam tujuh lewat tiga puluh menit pagi.

Sinta mencuci baju pada jam lima kurang lima belas menit sore.

Ibu berangkat berjualan ke pasar pada jam enam kurang lima belas menit.

Edo makan siang pada jam dua belas lewat tiga puluh menit siang.

LIVEWORKSHEETS