NAMA : _____ KELAS : _____

Mengenal SatuanPanjang

Tuliskan kepanjangandari setiap singkatan satuan panjang berikut!

km = _____

hm = _____

dam = _____

m = _____

d = _____

m = _____

cm mm = _____

LIVEWORKSHEETS

NAMA : _____ KELAS : _____

Satuan Panjang

Hubungkan dengan satuan yang tepat!

Jarak antar kota

Ketebalan kertas

Tinggi pintu

Panjang Pensil

- cm
- mm
- km
- m

LIVEWORKSHEETS

NAMA : _____ KELAS : _____

Konversi SatuanPanjang

Ubah satuan panjang berikut ke satuan panjang yang diminta!

Ingattanggasatuan panjang!

1.5 cm = _____ mm

2.80 mm = _____ cm

3.4 m = _____ cm

4.3 m = _____ mm

5.700 cm = _____ m

6. 2 km = _____ m

LIVEWORKSHEETS

NAMA : _____ KELAS : _____

Konversi SatuanPanjang

Selesaikan soal cerita berikut!

1. Panjang pita Rina 250 cm. Berapa meter panjang pita Rina?
   Jawaban :

2. Jarak rumah budi ke sekolah adalah 3 km. Berapa meter jarak dari rumah budi ke sekolah?
   Jawaban :

3. Panjang meja 1,2 m. Berapa cm panjang meja tersebut?
   Jawaban :

LIVEWORKSHEETS

NAMA : _____ KELAS : _____

Hitung Panjang Benda

Hitunglah jumlah kotak, lalu tuliskan panjangnya!

1.

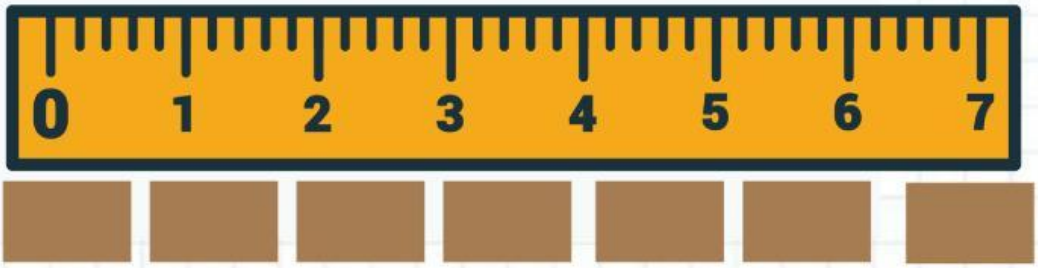

Panjang = ... cm

2.

Panjang = ... cm

3.

Panjang = ... cm

Setiap kotak mewakili 1 cm

LIVEWORKSHEETS

NAMA : _____ KELAS : _____

Pilih Jawaban Benar

Berilah tanda centang (✓) pada jawaban yang tepat!

1. 2 m = ... cm

☐ 20 cm ☐ 200 cm ☐ 2000 cm

2. 1 km = ... m

☐ 100 m ☐ 1000 m ☐

3. 50 cm = ... mm

☐ 5 mm 50 mm ☐ 500 mm

4. 5 dm = ... cm

☐ 50 cm ☐ 500 cm ☐ 5 cm

5. 9 dm = ,,, mm

☐ 90 mm ☐ 9 mm ☐ 900 mm

LIVEWORKSHEETS

NAMA : _____ KELAS : _____

Urutkan Panjang

Urutkan benda dari yang terpendek ke yang terpanjang

1.



13 cm 10 cm 3 cm

☐ < ☐ < ☐

2.

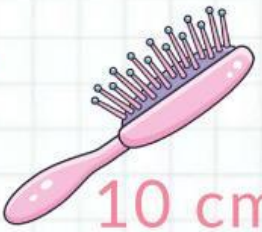

15 cm 10 cm 7 cm

☐ < ☐ < ☐

3.

6 cm 4 cm 17 cm

☐ < ☐ < ☐

LIVEWORKSHEETS

NAMA : _____ KELAS : _____

Soal Cerita Satuan Panjang

Bacalah soal dengan teliti, lalu tuliskan jawabannya!

1. Panjang pita merah adalah 80 cm. Pita biru lebih panjang daripada pita merah sejauh 25 cm. Berapa cm panjang pita biru?

Jawaban :

2. Panjang pensil adalah 17 cm. Panjang penghapus 6 cm lebih pendek daripada pensil. Berapa cm panjang penghapus?

Jawaban :

3. Panjang meja belajar Rina 120 cm. Panjang meja belajar Raka 30 cm lebih pendek daripada meja Rina. Berapa cm panjang meja Raka?

Jawaban :

LIVEWORKSHEETS

NAMA : _____ KELAS : _____

TEBAK SATUAN

Beri tanda (✓) satuan panjang yang paling tepat untuk benda berikut!

1.Sebuah jarum jahit

☐ mm ☐ cm ☐ m

2.Panjang jembatan

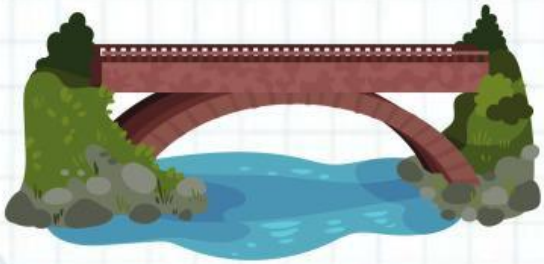

☐ cm ☐ m ☐ km

3.Tinggi pohon

☐ km ☐ m ☐ cm

LIVEWORKSHEETS