PEMERINTAHAN KABUPATEN SINJAI
DINAS PENDIDIKAN
SD NEG. NO 56 TALLE

Alamat : *Jl. Poros Sinjai Malino No. A35 Desa Kanrung Kec.Sinjai Tengah Kab. Sinjai*

ASESMEN SUMATIF AKHIR SEMESTER II

TAHUN PELAJARAN 2025/2026

LEMBAR SOAL

Mata Pelajaran : **Matematika**	**Nama Siswa** : .....
Kelas : **V (Lima)**	**Hari, Tanggal** : .....

I. Pilih salahsatu jawaban yang tepat dengan memberi tanda (X) pada pilihan a, b, c atau d !

1. 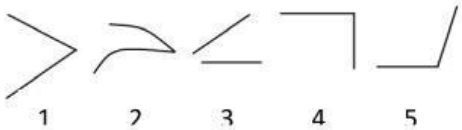

Gambar yang merupakan sudut ditunjukkan oleh nomor …

a. 1,2,3 c. 1,4,5
b. 1,3,5 d. 2,3,4

2. 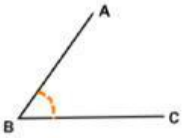

Gambar sudut disamping memilliki kaki sudut …

a. AB dan AC c. BA dan AC
b. BA dan BC d. AC dan CA

3. 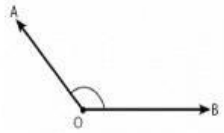

Jenis sudut yang ditunjukkan oleh gambar yaitu …

a. siku - siku c. lurus
b. lancip d. tumpul

4. 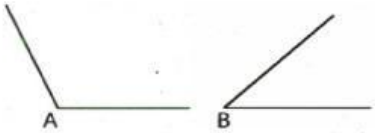

Pernyataan yang benar terkait perbandingan besar dua sudut pada gambar diatas adalah…

a. Sudut A lebih kecil dari sudut B
b. Sudut A lebih besar dari sudut B
c. Sudut A merupakan sudut lancip
d. Sudut B merupakan sudut tumpul

5. 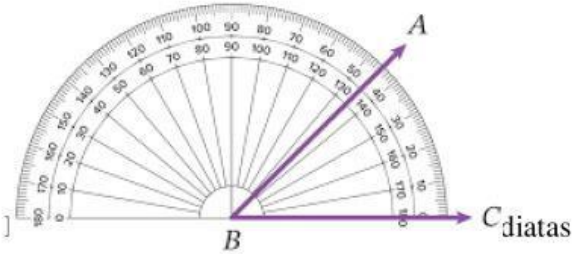

diatas adalah …

a. 45° c. 135°
b. 55° d. 145°

6. Alat yang digunakan untuk mengukur besar sudut adalah …

a. jangka c. busur derajat
b. penggaris d. meteran

7. Segitiga yang memiliki tiga sudut yang sama besarnya yakni 60°, adalah segitiga …

a. siku - siku c. sama sisi
b. sama kaki d. sembarang

8.

Jenis segitiga yang ditunjukkan gambar disamping adalah …

a. sama sisi c. siku – siku
b. sama kaki d. sembarang

9. Bangun datar segiempat yang memiliki sisi – sisi yang sama panjang, adalah…

a. persegi c. trapesium
b. persegi panjang d. jajar genjang

LIVEWORKSHEETS

10. 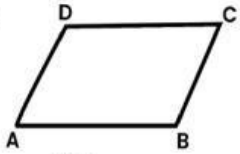

Pada gambar jajargenjang disamping, sisi yang sejajar dengan sisi AB adalah sisi…

a. AD
b. BC
c. CB
d. CD

11.

1. *Memiliki 4 sisi*
2. *Dua pasang sisi sejajar*
3. *Sudut yang berhadapan sama besar*
4. *Kedua diagonal tidak sama panjang*

Bangun datar yang memiliki ciri – ciri sesuai dengan ciri diatas adalah …

a. persegi panjang
b. belah ketupat
c. trapesium
d. jajar genjang

12. 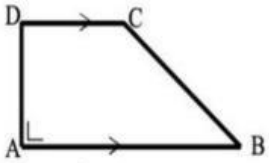

Pada gambar trapesium disamping, yang merupakan sudut lancip adalah …

a. sudut A
b. sudut B
c. sudut C
d. sudut D

13. 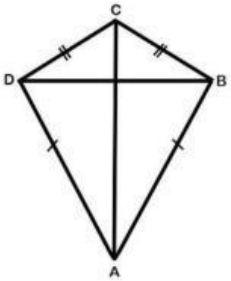

Bangun datar yang ditunjukkan gambar disamping adalah …

a. Persegi
b. Belah ketupat
c. Layang – Layang
d. Trapesium

Perhatikan Diagram di bawah ini, untuk menjawab soal nomor 14,15, dan 16!

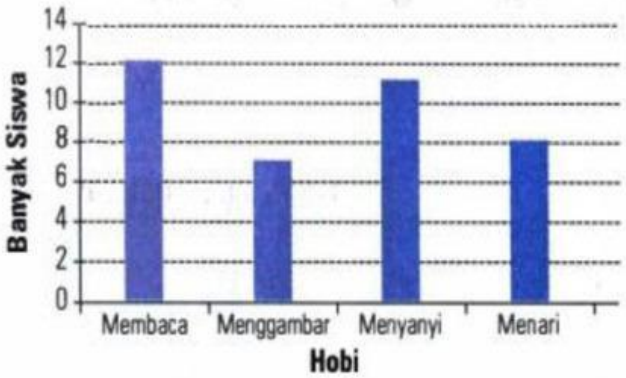

14. Berdasarkan diagram, jumlah siswa yang hobi menari adalah …

a. 6 siswa
b. 8 siswa
c. 10 siswa
d. 12 siswa

15. Berdasarkan diagram, hobi yang paling banyak diminati siswa yaitu ...

a. membaca
b. menggambar
c. menyanyi
d. Menari

16. Berdasarkan diagram, selisih siswa yang hobi membaca dan menggambar adalah …

a. 4 siswa
b. 5 siswa
c. 6 siswa
d. 7 siswa

Perhatikan data penjualan sepeda listrik berikut untuk Menjawab Pertanyaan no.17, 18, dan 19!

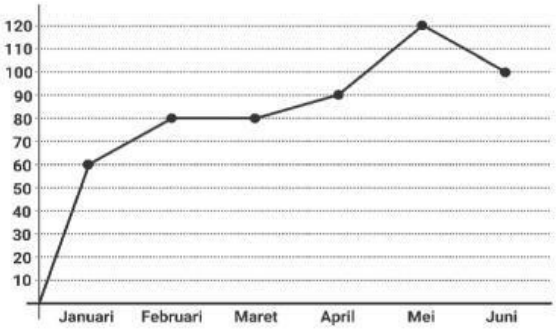

17. Data penjualan sepeda listrik tersebut disajikan dalam bentuk ...

a. Diagram Batang
b. Diagram Gambar
c. Diagram Lingkaran
d. Diagram Garis

18. Peningkatan penjualan sepeda listrik pada bulan April – Mei adalah sebesar ... unit.

a. 20
b. 25
c. 30
d. 35

19. Penurunan penjualan sepeda listrik terjadi pada periode bulan …

a. Januari ke Februari
b. Februari ke Maret
c. Maret Ke April
d. Mei ke Juni

20. Bilangan "Tiga ratus dua puluh lima ribu enam ratus tujuh puluh lima" ditulis dalam angka menjadi …

a. 325.765
b. 325.675
c. 352.765
d. 352.675

LIVEWORKSHEETS

21. *Penduduk Kecamatan Miralika berjumlah* ***125.400*** *jiwa.*
Penulisan yang tepat untuk bilangan diatas adalah…
a. Seratus dua puluh lima ribu empat puluh
b. Seratus dua puluh lima ribu empat ratus
c. Seratus dua puluh lima ribu empat ribu
d. Seratus dua puluh lima ribu empat ratus ribu

22. **450.790**
Angka 4 pada bilangan disamping menempati nilai …
a. Ratus ribuan
b. Puluh ribuan
c. ribuan
d. ratusan

23. Dekomposisi bilangan 840.750 yang benar adalah...
a. 800.000 + 40.000 + 7000 + 500
b. 800.000 + 40.000 + 7000 + 50
c. 800.000 + 40.000 + 700 + 500
d. 800.000 + 40.000 + 700 + 50

24. **445.000 ... 545.000**
Tanda yang tepat untuk menandai perbandingan dua bilangan diatas adalah…
a. <
b. >
c. =
d. ≤

25. Harga sepatu Rumsah yaitu Rp.325.521,00.
Harga sepatu Dewi yaitu Rp.295.900,00.
Harga sepatu Sarti yaitu Rp.412.000,00.
Urutan harga sepatu dari yang paling murah yaitu sepatu milik. . . .
a. Rumsah, Dewi, Sarti
b. Dewi, Rumsah, Sarti
c. Sarti, Rumsah, Dewi
d. Rumsah, Sarti, Dewi

LIVEWORKSHEETS