LKPD

LEMBAR KERJA PESERTA DIDIK

Kelas V

LIVEWORKSHEETS

Nama :

Kelas :

PECAHAN

Isilah jawaban dari soal pecahan di bawah dengan benar dan tepat!

Doni mengambil 1 potong dari 3 bagian lingkaran yang ada, berapakah sisanya?

Sita menambahkan 1 potong dari 3 bagian lingkaran yang ada, berapakah totalnya?

Dewi mengambil 1 potong dari 5 bagian lingkaran yang ada, berapakah sisanya?

Rudi menambahkan 1 potong dari 2 bagian lingkaran yang ada, berapakah sisanya?

LIVEWORKSHEETS

Nama :

Kelas :

BILANGAN PECAHAN

Pasangkanlah gambar di sebelah kiri dengan bilangan pecahan yang sesuai!

$\frac{1}{3}$

$\frac{3}{6}$

$\frac{3}{7}$

$\frac{1}{2}$

$\frac{1}{9}$

$\frac{2}{10}$

LIVEWORKSHEETS

LKPD

Nama : _____

Kelas : _____

Menentukan Pecahan

Tentukan nilai pecahan dari setiap bagian pizza.

1. 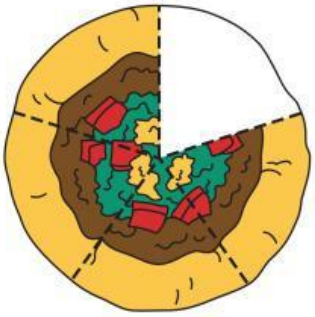

$\frac{\square}{\square}$

2. 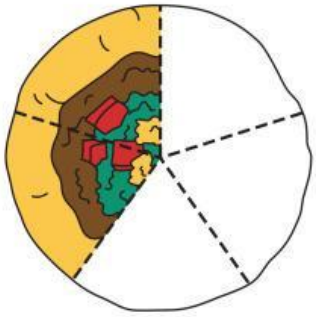

$\frac{\square}{\square}$

3. 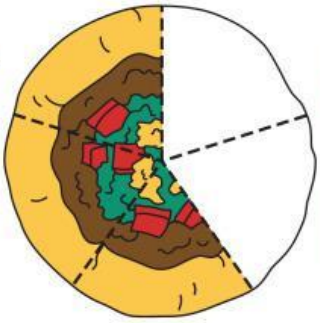

$\frac{\square}{\square}$

4. 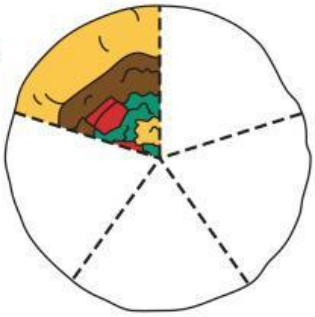

$\frac{\square}{\square}$

5. 

$\frac{\square}{\square}$

6. 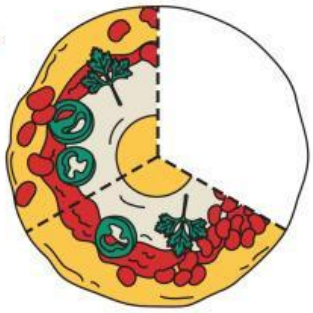

$\frac{\square}{\square}$

LIVEWORKSHEETS