LKPD
Matematika

Tema: Mengenal bentuk bentuk bangun datar

Nama: _____ Kelas: _____

Oleh: Muhammad Yuli Hardi

LIVEWORKSHEETS

Capain Pembelajaran

Peserta didik dapat mengenal berbagai bentuk bangun datar (segitiga, segiempat, segibanyak, dan lingkaran) dan bangun ruang (balok, kubus, kerucut, bola).

Tujuan Pembelajaran

Peserta didik dapat menyebutkan (C1) nama-nama bangun datar sederhana (segitiga, segiempat, segibanyak dan lingkaran) dengan tepat.

Peserta didik dapat memilah (P2) berbagai bentukbangun datar berdasarkan jenisnya melaluipermainan kartu bentuk.



LIVEWORKSHEETS

Materi Singkat

Mengenal Bentuk-Bentuk Bangun Datar

Bangun datar adalah bentuk dua dimensi yang memiliki panjang dan lebar serta dapat digambar pada bidang datar. Bangun datar memiliki sisi dan titik sudut tertentu.
Beberapa bentuk bangun datar yang sering kita temui dalam kehidupan sehari-hari adalah:

1.Persegi
Memiliki 4 sisi yang sama panjang.
Memiliki 4 sudut siku-siku.
2.Persegi Panjang
Memiliki 2 pasang sisi yang sama panjang.
Memiliki 4 sudut siku-siku.
3.Segitiga
Memiliki 3 sisi.
Memiliki 3 titik sudut.

4.Lingkaran
Tidak memiliki sisi dan titik sudut.
Bentuknya bulat.



5.Jajar Genjang
Memiliki 2 pasang sisi yang sejajar dan sama panjang.

Bangun datar dapat ditemukan pada berbagai benda di sekitar kita. Misalnya, ubin lantai berbentuk persegi, buku berbentuk persegi panjang, rambu lalu lintas berbentuk segitiga, dan jam dinding berbentuk lingkaran.

LIVEWORKSHEETS

Sudut pada Bangun Datar

Hubungkan bangun datar dengan jenis sudutnya yang tepat.





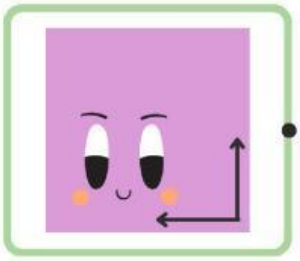

- Sudut Lancip
- Sudut Siku-Siku
- Sudut Tumpul
- Sudut Lurus
- Sudut Refleks

LIVEWORKSHEETS

Sisi pada Bangun Datar

Hitunglah dan tulislah jumlah sisi bangun datar di bawah ini.

_____

_____

_____

_____

_____

_____



_____

_____

_____

LIVEWORKSHEETS

Hitung Sudut pada Bangun Datar

Hitung dan tulislah jumlah sudut pada bangun datar di bawah ini.



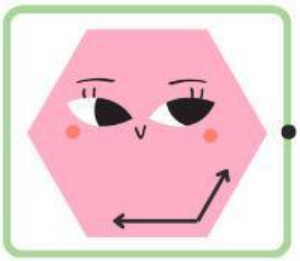



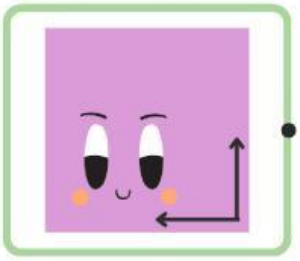

LIVEWORKSHEETS

Soal Evaluasi

Materi:Mengenal Bentuk-Bentuk Bangun Datar

1.Bentuk bangun datar yang memiliki 3 sisi adalah ....

a. Lingkaran

b. Segitiga

c. Persegi

2.Bentuk bangun datar yang bulat adalah ....

a. Lingkaran

b. Segitiga

c. Persegi panjang

3.Buku tulis biasanya berbentuk ....

a. Lingkaran

b. Segitiga

c. Persegi panjang

4.Bangun datar yang memiliki 4 sisi sama panjang disebut ....

a. Persegi

b. Lingkaran

c. Segitiga



5.Roda sepeda memiliki bentuk seperti ....

a. Persegi

b. Lingkaran

c. Segitiga

LIVEWORKSHEETS

Refleksi



Setelah mempelajari materi Mengenal Bentuk-Bentuk Bangun Datar dan mengerjakan kegiatan pada LKPD ini, jawablah pertanyaan berikut dengan jujur.



1.Apa yang kamu pelajari hari ini?

.....

2.Bangun datar apa yang paling mudah kamu kenali? Mengapa?

.....

3.Apakah kamu mengalami kesulitan saat mempelajari materi ini?

- Ya
- Tidak

Jika ya, tuliskan kesulitanmu:

.....

4.Sebutkan satu contoh benda di sekitarmu yang memiliki bentuk bangun datar!

.....

5.Bagaimana perasaanmu setelah mengikuti pembelajaran hari ini?

- Senang
- Cukup Senang
- Kurang

LIVEWORKSHEETS