Nama: Kelas:

LKPD

SIKLUS HIDUP MAKHLUK HIDUP DAN UPAYA PELESTARIANNYA (CONTOH: KUPU-KUPU)

A. Memahami Konsep

Jawablah pertanyaan berikut!

1. Apa yang dimaksud dengan siklus hidup makhluk hidup?

   _____

   _____

2. Mengapa setiap makhluk hidup mengalami siklus hidup?

   _____

   _____

3. Apa yang terjadi pada makhluk hidup pada saat tumbuh dan berkembang?

   _____

   _____

3. Pilihlah jawaban yang benar!

   Siklus hidup adalah.....

   A. Tempat hidup makhluk hidup

   B. Tahapan pertumbuhan makhluk hidup dari lahir hingga dewasa

   C. Cara makhluk hidup mencari makan

   D. Jenis-jenis makhluk hidup

LIVEWORKSHEETS

B. Mengamati

Amatilah gambar siklus hidup kupu-kupu berikut!

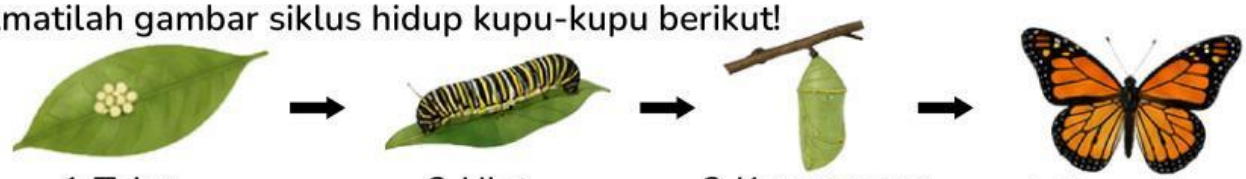

1. Telur
2. Ulat
3. Kepompong
4. Kupu-Kupu

C. Mengurutkan

Urutkan tahapan siklus hidup kupu-kupu dengan cara menarik gambar ke kotak yang tersedia sesuai urutan yang benar!



D. Pemecahan Masalah

Bacalah permasalahan berikut!

Di sebuah taman terdapat banyak tanaman bunga yang menjadi sumber makanan kupu-kupu. Namun, sebagian bunga dicabut atau ditebang untuk pembangunan sehingga jumlah kupu-kupu di taman tersebut semakin berkurang.

1. Mengapa jumlah kupu-kupu di taman tersebut berkurang?

   _____

2. Apa dampaknya jika jumlah kupu-kupu terus berkurang?

   _____

3. Apa solusi yang dapat dilakukan untuk menjaga keberadaan kupu-kupu?

   _____

LIVEWORKSHEETS

E. Upaya Pelestarian

Berilah tanda centang pada tindakan yang dapat membantu melestarikan kupu-kupu!

Menanam bunga

☐

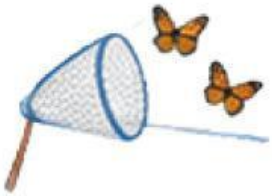

Menangkap kupu-kupu

☐

Membuang sampah

☐

Menjaga kebersihan

☐

Menyemprot tanaman dengan pestisida

☐

LIVEWORKSHEETS