ورقة عمل مادة الرياضيات

الاسم		الصف	

اختاري الإجابة الصحيحة :

١	أي زوج مرتب فيما يأتي هو حل للمعادلة ص = -٣ س ؟							
	أ	(١ , -٣)	ب	(٣ , ١)	ج	(-٣ , ١)	د	(١ , ٣)
٢	القانون المستخدم لحساب مساحة شبه المنحرف هو :							
	أ	م = ق × ع	ب	م = $\frac{١}{٢}$ ع (ق$_{١}$ + ق$_{٢}$)	ج	م = $\frac{١}{٢}$ ق × ع	د	م = (ق$_{١}$ + ق$_{٢}$)
٣	لحساب المساحة الكلية (ك) لسطح الهرم نستخدم الصيغة :							
	أ	ك = ج × م	ب	ك = ج – م	ج	ك = ج + م	د	ك = $\frac{١}{٢}$ ج + م
٤	عند فتح أسطوانة لتكوين مخططها , ما هو الشكل الهندسي الذي يمثل السطح الجانبي ؟							
	أ	دائرة	ب	مستطيل	ج	مثلث	د	مربع
٥	ما المتباينة التي يمثلها الشكل أدناه ؟							
	أ	س < -١	ب	س ≥ -١	ج	س > -١	د	س ≤ -١
٦	إذا تم اختيار الطالب الذي ترتيبه ٢٠ ومضاعفات الـ٢٠ من القائمة المرتبة أبجديًا , فإن العينة تسمى :							
	أ	عينة عشوائية منتظمة	ب	عينة عشوائية طبقية	ج	عينة عشوائية بسيطة	د	عينة تطوعية
٧	أي من المتتابعات التالية تُعد متتابعة حسابية ؟							
	أ	٢ , ٤ , ٨ , ١٦ , ...	ب	١ , ٤ , ٩ , ١٦ ,...	ج	٣ , ٥ , ٧ , ٩,...	د	١٠ ,٨ , ٥ , ١,...
٨	يبيع محل خضار ٦ برتقالات بسعر ١٢ ريالاً . إذا كان العلاقة طردية فما ثمن ١٠ برتقالات ؟							
	أ	١٥ ريالاً	ب	١٨ ريالاً	ج	٢٠ ريالاً	د	٢٤ ريالاً
٩	أي مما يأتي يمثل المنظر الجانبي للمجسم أدناه ؟ 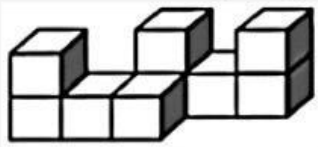							
	أ		ب	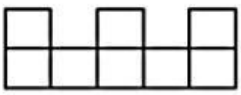	ج	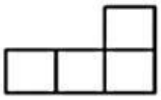	د	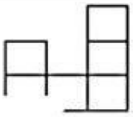
١٠	أي المتباينات التالية تمثل الجملة (عدد زائد ٢ أكبر من ٨) ؟							
	أ	س + ٢ > ٨	ب	س + ٢ < ٨	ج	س + ٢ ≤ ٨	د	س + ٢ ≥ ٨

☐ اتقنت ☐ لم تتقن

معلمة المادة : حمده الغالي

LIVEWORKSHEETS