Prefeitura Municipal de Araxá
Secretaria municipal de Educação

Programa "Aula em Casa"	
Aluno(a):	**Turma**: A ,B_° Ano
Professor(a):IDELMA APARECIDA CRISPIM	**Período:** **22 a 26 de março de 2021**
Escola Municipal Dona Gabriela	

2- FEIRA

QUESTÃO 01- Complete a tabela numérica de ordem sequencial.

A	**1**					**6**						**12**
B	**25**					**30**						**36**
C	**119**					**124**						**130**
D	**286**					**291**						**297**

QUESTÃO 02 - Resolva as situações problemas:

a-Ana tem 195 bolsas em sua coleção. QMaria tem 128. Quantas bolsas Ana têm a mais que Maria?

b-Uma loja de roupas recebeu 162 peças. Vendeu 42 das mesmas. Quantas peças restaram?

c-Se eu compro uma blusa por R$16,00, quanto eu vou gastar para comprar três blusas?

QUESTÃO 03 – Leia os números e escreva os numerais por extenso;

120----------

84----------

53----------

97----------

101----------

LIVEWORKSHEETS

3ª FEIRA

QUESTÃO 04- Márcio chegou à escola às 7h e 45 minutos e foi embora 4 horas depois. Qual dos relógios abaixo marca a hora da saída de Márcio da escola?

Assista ao vídeo Medidas de tempo - Horas exatas, acessando o link:

<https://www.youtube.com/watch?v=4dhd_1nbk3w> Acesso em: 02 fev. 2021

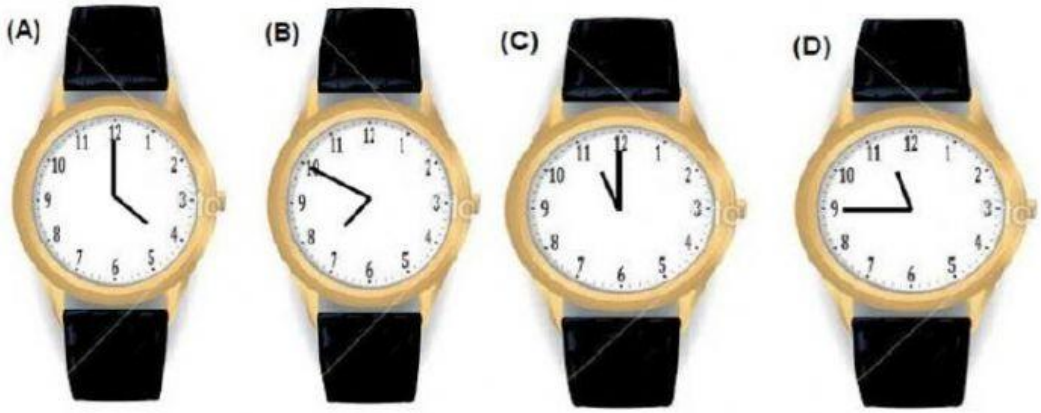

QUESTÃO 05 - Estime seu tempo.

Pedro gasta, mais ou menos, 15 minutos para merendar. E você? Quanto tempo gasta, aproximadamente, para:

Merendar?

( ) 20 minutos ( ) 1 hora ( ) 5 minutos

b) Vestir o uniforme?

( ) 1 minuto ( ) 10 minutos ( ) 1 hora

c) dormir?

( ) 40 minutos ( ) 3 horas ( ) 8 horas

QUESTÃO 06 – Observe na tabela o total de pontos feitos por cada equipe na brincadeira formando conjuntos, depois, faça o que se pede:

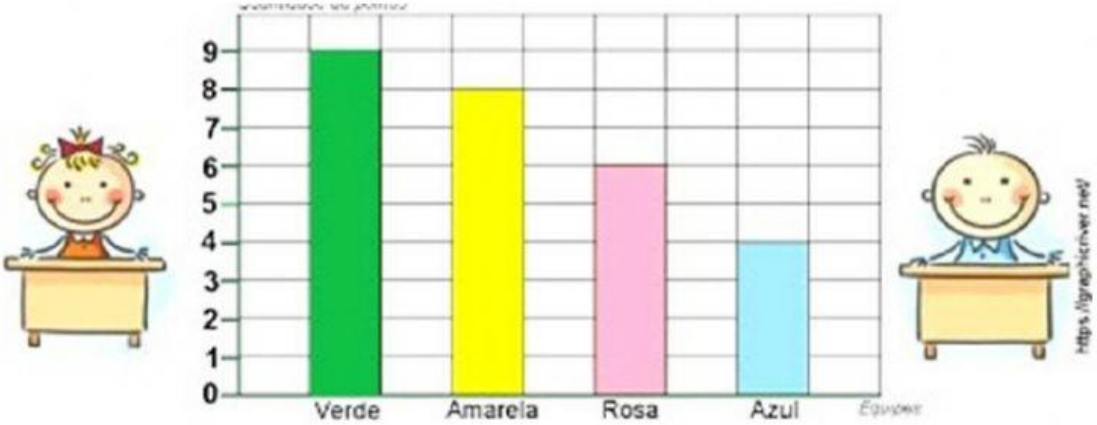

A)Qual equipe fez MAIS pontos? ----------

B)Qual equipe fez MENOS pontos?----------

C)Quantos pontos fez a equipe Rosa? ----------

LIVEWORKSHEETS

D)Qual equipe fez 8 Pontos? ----------

4ª FEIRA

1-Veja esta placa de trânsito. Ela é colocada próxima às escolas para orientar os motoristas.

A placa tem o formato que lembra um:

( )RETÂNGULO ( ) TRIÂNGULO

( )QUADRADO ( )CÍRCULO

Esta figura tem_lados.---------



CIÊNCIAS

Leia o enunciado e responda as questões a seguir:

Nos dias de hoje, estamos passando por uma situação muito complicada no mundo: uma pandemia. Mas o que é pandemia? Pandemia é quando uma doença se espalha por uma grande quantidade de regiões do MUNDO. É o caso da COVID-19. A COVID-19 é uma doenças causado pelo Coronavírus.

Na imagem abaixo segue algumas medidas de prevenção que devemos tomar para evitar a contaminação.

Fonte: https://paraiba.pb.gov.br/diretas/secretaria-de-administracao/informativo-coronavirus

De acordo com o texto o que é pandemia?

A)Como o Coronavírus pode ser transmitido?----------

LIVEWORKSHEETS

B)Como devemos nos cuidar para não se contaminar com o Coronavírus?----------

6ª FEIRA

ARTES

1-Observe as brincadeiras retratadas na tela de Ivan Cruz e responda.

Fonte; IVAN CRUZ - Acrilex Tintas Artísticas - acrilex.com.br

2-Escolha três brincadeiras de sua preferência e registre os nomes abaixo.

3- Com base nas brincadeiras que você escolheu quais foram as partes do corpo mais usadas para executar essas brincadeiras?

4-A arte permite inventar cores, formas e situações em comuns e fazer retratos expressivos, abstratos ou imaginários. Agora, você é o artista! Com base na tela retratada pelo autor Ivan Cruz e também nas brincadeiras que você costuma praticar, construa uma tela usando sua criatividade! Capriche!

LIVEWORKSHEETS