МАТЕМАТИКА • КВЕСТ ПОВТОРЕННЯ

Предмет: _____ Дата: _____

Тема: _____ Дата: _____

Ім'я учня: _____

Вітаю, юний герою! Твоя місія: пройти крізь Геометричні Землі та узагальнити знання про фігури. За кожен виконаний етап отримуй досвід та артефакти!

1 Завдання 1: Карта Термінів

Проведи лінії, поєднуючи назву фігури з її зображенням та визначенням.

Точка	Має 4 рівні сторони
Промінь	Має 3 сторони
Кут	Має 3 рівні сторони
Трикутник	Два промені зі спільним початком
Прямокутник	Прямокутник
Квадрат	Має 4 рівні сторони

2 Завдання 2: Оглядова Вежа Кутів

Класифікуй кути, позначивши відповідною літерою: П (прямий), Г (гострий), Т (тупий).

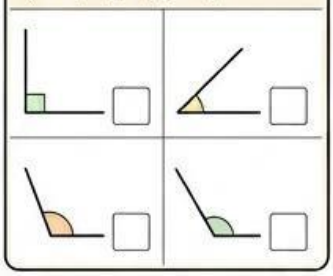

Підказка: P=2°(a+b), S=a°a.

3 Завдання 3: Периметр Фортеці

Обчисли периметр (P) фортеці, якщо її сторони мають вказані доежини.

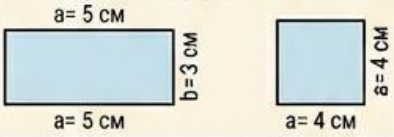

P = _____

P = _____

Підказка: Вимірюй точно!

4 Завдання 4: Площа Саду Полів

Дізнайся площу (S) двох полів.

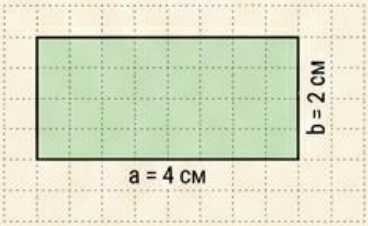

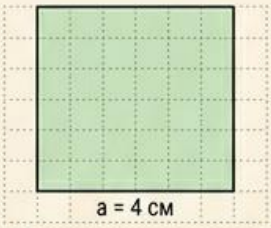

S = _____ S = _____

5 Завдання 5: Таємниці Фігур

Відзнач правильні твердження знаком "+", а неправильні знаком "-".

- ☐ У прямокутника всі сторони рівні.
- ☐ Квадрат має 4 прямих кути.
- ☐ Трикутник завжди має рівні сторони.

ВИКОНАНО

ЗАВДАННЯ ВИКОНАНО! ★★★

Мій успіх: _____

A4

LIVEWORKSHEETS