LKPD

Bangun Datar

Perhatikan vidio berikut ini :

Perhatikan Presentasi Berikut :

Materi

Materi

LIVEWORKSHEETS

LKPD

Bangun Datar

1 TEKSFIELD

Bangun datar segi keempat sisinya sama panjang dan keempat sudutnya siku-siku atau 90 adalah...

2 SINGLE CHOICE

Berikut ini yang merupakan bangun datar adalah...

3 CHECKBOXES

Pernyataan yang benar adalah...

- [ ] Persegi memiliki 4 sisi
- [ ] Lingkarang mmemiliki 6 sisi
- [ ] Segitiga memiliki 3 sisi

4 SELECT

Nama bangun datar dibawah ini adalah...

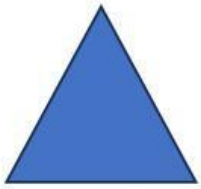

- [ ] Persegi
- [ ] Segitiga
- [ ] Persegi Panjang
- [ ] Lingkaran

LIVEWORKSHEETS

LKPD

Bangun Datar

5 WORD SEACRH

Tentukan 3 kata pada kotak dibawah ini...

S	S	I	S	I
M	U	L	I	N
O	S	D	K	T
D	K	C	U	K
U	G	X	M	T

6 SPEAK

Jelaskan nama bangun datar berikut dengan tepat!



LIVEWORKSHEETS

LKPD

Bangun Datar

7 LISTENING

Dengarkan suara berikut dan tuliskan jawaban nya yang tepat!

8 DRAG & DROP

Tentukan rumus yang sesuai dengan gambar



L = ½ × alas × tinggi

L = panjang × lebar

L = π × r × r

LIVEWORKSHEETS

LKPD

Bangun Datar

9 JOIN

Buatlah garis ke jawaban yang benar

PERSEGI PANJANG

SEGITIGA

LINGKARAN

LIVEWORKSHEETS