LKPD

BANGUN DATAR

Perhatikan video berikut ini:

Perhatikan materi presentasi berikut ini:

Materi

Materi

LIVEWORKSHEETS

LKPD

BANGUN DATAR

1

TEKSFIELD

Bangun datar segi empat yang keempat sisinya sama panjang dan keempat sudutnya siku-siku atau 90° adalah..

2

SINGLE CHOICE

Berikut ini yang bukan merupakan bangun datar adalah...

3

CHECKBOXES

Pernyataan yang benar adalah..

- Persegi memiliki 4 sisi
- Lingkaran memiliki 6 sisi
- Segitiga memiliki 3 sisi

4

SELECT

Nama bangun datar dibawah ini adalah...

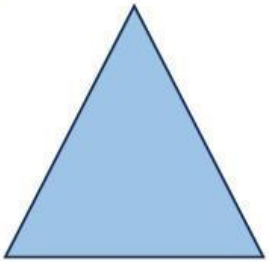

- Persegi
- Segitiga
- Persegi Panjang
- Lingkaran

LIVEWORKSHEETS

LKPD

BANGUN DATAR

5

WORD SEACRH

Tentukan 3 kata pada kotak dibawah ini

S	S	I	S	I
M	U	L	I	N
O	S	D	K	T
D	K	C	U	K
U	G	X	M	T

6

SPEAK

Jelaskan nama bangun datar berikut dengan tepat!

LIVEWORKSHEETS

LKPD

BANGUN DATAR

7

LISTENING

Dengarkan suara berikut dan tuliskan jawaban nya yang tepat!

8

DRAG & DROP

Tentukan rumus yang sesuai dengan gambar

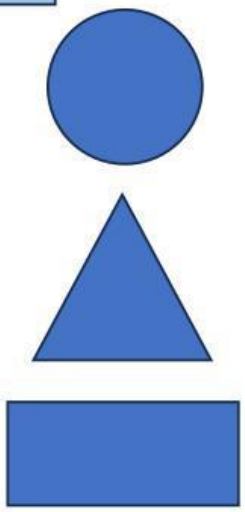

$L = \frac{1}{2} \times alas \times tinggi$

$L = Panjang \times Lebar$

$L = \pi \times r \times r$

LIVEWORKSHEETS

LKPD

BANGUN DATAR

9

JOIN

Buatlah garis ke jawaban yang benar

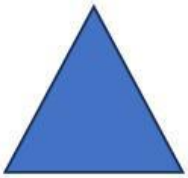

Persegi Panjang

Lingkaran

Segitiga

LIVEWORKSHEETS