LKPD

Mengenal Bagian-bagian Tumbuhan dan Fungsinya

Nama:

Kelas: No. Absen:

LIVEWORKSHEETS

Mengenal Struktur dan Fungsi Bagian Tumbuhan

A. Lengkapi Nama Bagian Tumbuhan

Amati gambar tumbuhan di bawah ini. Tulislah nama bagian tumbuhan sesuai dengan tanda panah yang menunjuknya!

Bagian 1: _____

Bagian 2: _____

Bagian 3: _____

Bagian 4: _____

Bagian 5: _____



B. Pilih Fungsi yang Tepat

Hubungkan bagian tumbuhan di kolom kiri dengan fungsi utamanya di kolom kanan!

Akar	Tempat berlangsungnya fotosintesis
Batang	Menyerap air dan mineral dari tanah
Daun	Menghubungkan akar dan daun
Buah	Melindungi biji agar tidak rusak
Bunga	Alat perkembangbiakan

C. Tuliskan pendapatmu!

Menurutmu, bagian tumbuhan manakah yang paling penting? Mengapa?

_____

_____

LIVEWORKSHEETS

Bagian Tanaman dan Fungsinya

Lengkapi kalimat berikut ini sesuai dengan fungsi dari setiap bagian tanaman yang ada di bawah ini :



01 Akar menyerap _____ dari tanah.

02 Batang berguna untuk _____ tanaman.

03 Daun membuat _____ dari cahaya matahari.

04 Bunga membantu tanaman untuk _____

05 Buah bisa _____ dan menjadi makanan.

Pilihan Kata Bantu:

air | menopang | makanan

berkembang biak | tumbuh | tempat biji

LIVEWORKSHEETS

Mengenal Bagian Tumbuhan

Hubungkan gambar bagian tumbuhan di bawah ini, dengan namanya!









- Daun
- Buah
- Akar
- Batang
- Bunga

LIVEWORKSHEETS

Benar atau Salah?

Bagian Tumbuhan dan Fungsinya

Arahan! Berilah tanda (✓) pada jawaban benar atau salah untuk pernyataan tentang tumbuhan berikut!

Akar membantu tumbuhan berdiri kuat di tanah

☐ Benar Salah ☐

Daun adalah tempat tumbuhan membuat makanan

☐ Benar Salah ☐

Bunga dari bagian dari tanaman selalu berwarna merah

☐ Benar Salah ☐

Bunga hanya berfungsi untuk hiasan tumbuhan saja

☐ Benar Salah ☐

Akar juga berfungsi menyerap air dan mineral dari tanah

☐ Benar Salah ☐

Hanya sebagian tumbuhan yang memiliki bunga

☐ Benar Salah ☐

Semua tumbuhan pasti mempunyai buah

☐ Benar Salah ☐

Daun membantu tumbuhan untuk bernapas

☐ Benar Salah ☐

LIVEWORKSHEETS

Lembar Kerja Ilmu Pengetahuan Alam

Tema: Tumbuhan

Instruksi:

Bacalah setiap pertanyaan dengan cermat. Lingkari jawaban yang menurut kamu benar!

1. Bagian tumbuhan yang berfungsi menyerap air dan nutrisi dari tanah adalah ...

A. Daun B. Batang C. Akar D. Bunga

2. Bagian tumbuhan yang berwarna hijau dan melakukan proses fotosintesis adalah ...

A. Akar B. Batang C. Daun D. Biji

3. Bagian tumbuhan yang berfungsi mendukung agar tumbuhan bisa berdiri tegak adalah ...

A. Akar B. Batang C. Daun D. Bunga

4. Bunga pada tumbuhan umumnya tumbuh di bagian ...

A. Ujung batang B. Daun C. Akar D. Biji

5. Bagian tumbuhan yang mengandung benih untuk tumbuhnya tanaman baru adalah ...

A. Daun B. Batang C. Biji D. Akar

LIVEWORKSHEETS