K.BÀI 3. CHỤC VÀ ĐƠN VỊ

Họ và tên: _____ Ngày: _____

Bài 1: Đếm và điền số

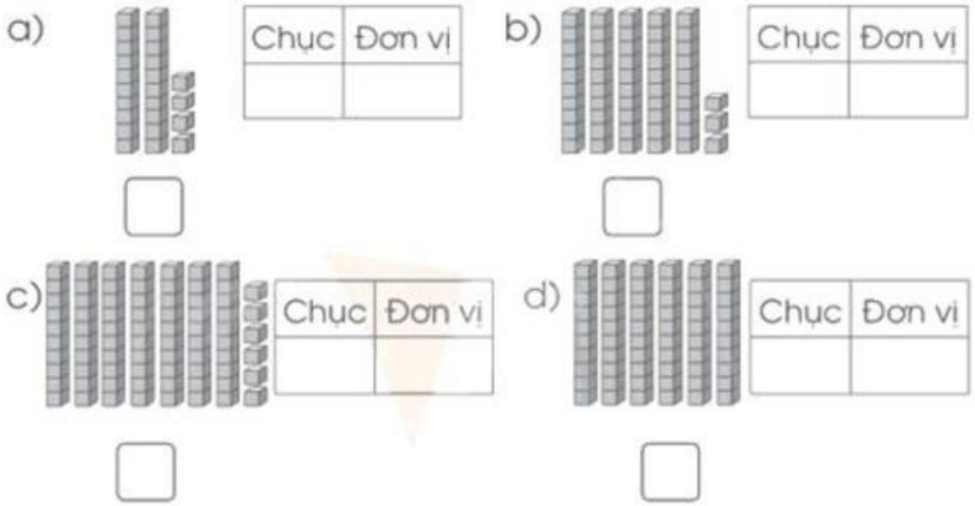

Bài 3: Điền các số tròn chục còn thiếu

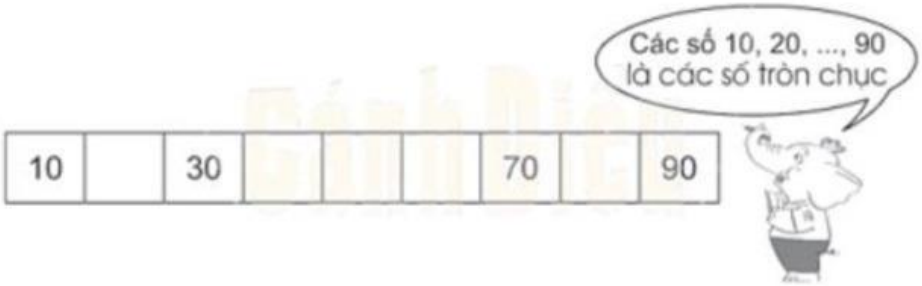

Bài 3. Điền số theo mẫu

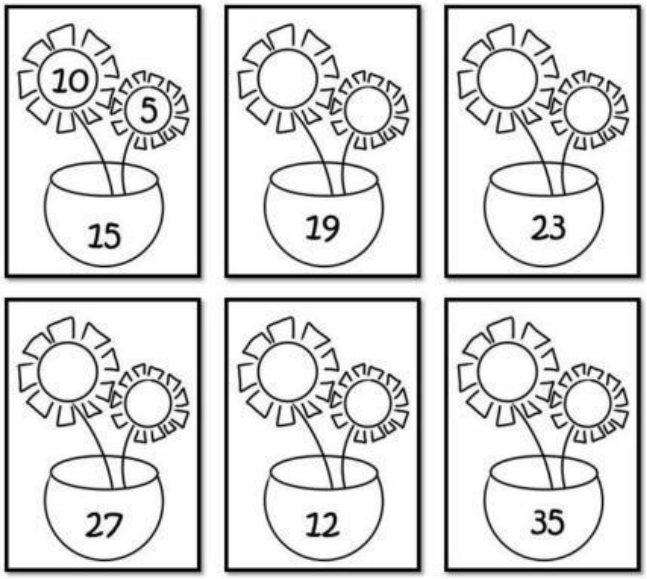

LIVEWORKSHEETS

Bài 4. Điền số theo mẫu

Số 15 gồm 1 chục và 5 đơn vị.

Số 27 gồm ? chục và ? đơn vị.

Số 79 gồm ? chục và ? đơn vị.

Số ? gồm 3 chục và 1 đơn vị.

Số ? gồm 9 chục và 0 đơn vị.

Số ? gồm 9 chục và 9 đơn vị.

Số ? gồm 7 chục và 3 đơn vị.

Bài 5. Em hãy tìm các số có 2 chữ sô

LIVEWORKSHEETS