وزارة التربيـــة والتعليـــم والتعليـــم العالـــي
Ministry of Education and Higher Education
State of Qatar • دولـــة قطـــر

	حل بمفرده
	حل بمساعدة المعلمة
	لم يحل

20

قسم الحوسبة وتكنولوجيا المعلومات

تقييم شامل للمهارات النظرية نهاية الفصل الثاني

الصف الثاني

الاسم: ..... الصف: الثاني ..... التاريخ: ...../ 5/ 2026

الاختبار العملي	الاختبار النظري
الوحدة الثالثة: البرمجة الرسومية	الوحدة الثانية: أنا أزور العالم
الدرس الأول: بدء استخدام برنامج TurtleArt .	الدرس الرابع: الألعاب التعليمية
كتاب الطالب : من صفحة 56 إلى 57	كتاب الطالب : من صفحة 46 إلى 47
كتاب التدريبات والأنشطة صفحة 45	كتاب التدريبات والأنشطة صفحة 39
الدرس الثاني: تحريك السلحفاة.	الوحدة الثالثة: البرمجة الرسومية
كتاب الطالب :من صفحة 58 إلى 67	الدرس الأول: بدء استخدام برنامج TurtleArt .
كتاب التدريبات والأنشطة: من صفحة 47 إلى 51	كتاب الطالب : صفحة 55
الدرس الثالث: رسم الأشكال.	كتاب التدريبات والأنشطة صفحة 45
كتاب الطالب من صفحة 68 إلى 74	الدرس الثاني: تحريك السلحفاة.
كتاب التدريبات والأنشطة من صفحة 53 إلى 55	كتاب الطالب : صفحة 66
	كتاب التدريبات والأنشطة: من صفحة 47 إلى 51
	الدرس الثالث: رسم الأشكال.
	كتاب الطالب من صفحة 68 إلى 74
	كتاب التدريبات والأنشطة من صفحة 53 إلى 55

LIVEWORKSHEETS

الوحدة الثانية الدرس الرابع: الألعاب التعليمية من صفحة 46 إلى 47

2

السؤال الأول: صل بين عمودين.

1	من خدمات الإنترنت تستطيع أن ترى العالم.		
2	من خدمات الإنترنت مكتبة قطر الوطنية.		Google Earth

السؤال الثاني: أجب عن الأسئلة بوضع علامة صح (✓) أسفل الصورة المناسبة

2

من خدمات الانترنت زيارة المتاحف.

☐

☐

الوحدة الثالثة الدرس الأول : بدء استخدام برنامج TurtleArt صفحة 55

2

السؤال الثالث: اختر الإجابة الصحيحة:

1- لغة خاصة لإصدار الأوامر للحاسوب.

لغة الحاسوب　　اللغة العربية　　لغة الإشارة

LIVEWORKSHEETS

السؤال الرابع: صل بين عمودين.

2

1	الأوامر.		TurtleArt
2	برنامج يستخدم أوامر بسيطة لرسم أشكال هندسية ورسومات فنية.		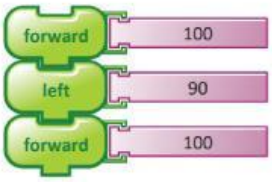

السؤال الخامس: أجب عن الأسئلة بوضع علامة صح (✓) أسفل الصورة المناسبة.

2

1- برنامج يستخدم أوامربسيطة لرسم أشكال هندسية ورسومات فنية.

☐ ☐

الوحدة الثالثة الدرس الثاني : تحريك السلحفاة صفحة 66

2

السؤال السادس: اختر الإجابة الصحيحة.

1- الخط الذي تتركه السلحفاة خلفها وهي تسير.

القلم المحاة الكتاب

LIVEWORKSHEETS

2- أداة القلم التي تستخدم لرسم خط في برنامج السلحفاة تسمى.

القلم لأسفل	القلم لأعلى	القلم لليسار
Pen Down	Pen up	Pen left

الوحدة الثالثة الدرس الثالث : رسم الأشكال من صفحة 68 إلى 74

السؤال السابع: اختر الإجابة الصحيحة

2

1- جميع الخطوات وضعت بالترتيب الصحيح.

التسلسل الرسم الأشكال

السؤال الثامن: صل بين عمودين.

2

1	شكل له أربع أضلاع لها نفس القياس.		
2	الخطأ في برنامج رسم المربع التالي. 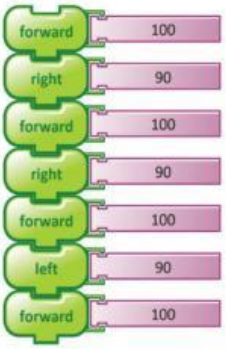		

LIVEWORKSHEETS

4

السؤال التاسع: أجب عن الأسئلة بوضع علامة صح (✓) أسفل الصورة.

1 – الخطأ في خطوات رسم المربع التالي .

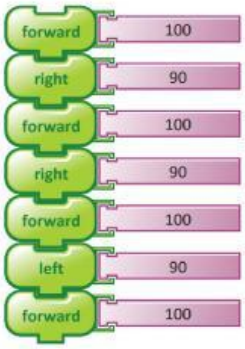





☐ ☐

2- الشكل الذي سيتم رسمه من الأوامر التالية.

☐ ☐

LIVEWORKSHEETS