LATIHAN SOAL PECAHAN

NAMA :

KELAS :

Bismillahirrahmanirrahim

A. Temukan pecahan senilai dari pecahan-pecahan berikut !

1. $\frac{4}{6} = \frac{12}{...}$

2. $\frac{7}{12} = \frac{...}{24}$

3. $\frac{8}{9} = \frac{32}{...}$

4. $\frac{5}{10} = \frac{...}{2}$

5. $\frac{3}{15} = \frac{...}{5}$

6. $\frac{8}{9} = \frac{32}{...}$

II. Tuliskan nilai pecahan pada gambar dan isilah kotak di bagian kanan dengan "Senilai" atau "Tidak Senilai" !

a.



dan

Senilai/ Tidak Senilai

.....

b.



dan



Senilai/ Tidak Senilai

.....

LIVEWORKSHEETS

c. dan

Senilai/ Tidak Senilai

.....

III. Sederhanakan pecahan berikut menjadi bentuk pecahan yang nilainya paling kecil!

A. $\frac{3}{9} = \frac{...}{...}$

B. $\frac{5}{25} = \frac{...}{...}$

C. $\frac{4}{16} = \frac{...}{...}$

D. $\frac{7}{28} = \frac{...}{...}$

Selamat mengerjakan

Tetap Semangat Belajar ya!

Jangan lupa ucapkan hamdallah

LIVEWORKSHEETS