KRISTI DERINA, S.Pd., Gr
SMP NEGERI 21 SIJUNJUNG

LEMBAR KERJA PESERTA DIDIK

BANGUN RUANG SISI DATAR

NAMA : .....

KELAS : .....

Amati Video Pembelajaran berikut ini

Play MP3

LIVEWORKSHEETS

Tuliskan apa yang dapat kamu pahami dari video pembelajaran diatas!

BACA DAN KERJAKAN SESUAI DENGAN PERINTAHNYA...

A. DROP AND DOWN

Gambar di samping merupakan contoh bangun ....

B. PILIHAN GANDA

1. Sebuah kotak berbentuk kubus, mempunyai panjang rusuk 10 cm. Luas permukaan kotak tersebut adalah....
   A. 600
   B. 800
   C. 900
   D. 1000

2. Diketahui sebuah balok dengan panjang 6 cm, lebar 4 cm, dan tinggi 2 cm. Volume balok tersebut adalah....
   A. 42 cm^3
   B. 48 cm^3
   C. 54 cm^3
   D. 72 cm^3

LIVEWORKSHEETS

C. KOTAK CENTANG

Berilah Tanda Centang Pada Bangun Ruang Sisi Datar

- [ ] KUBUS
- [ ] SEGITIGA
- [ ] BALOK
- [ ] SEGITIGA

D. MENJODOHKAN DENGAN GARIS

LUAS PERMUKAAN KUBUS	2 (pt + pl + pt)
VOLUME KUBUS	$6s^2$
LUAS PERMUKAAN BALOK	p x l x t
VOLUME BALOK	s^2

LIVEWORKSHEETS

E. DRAG AND DROP

Klik/sentuh gambar, kemudian geser dan lepas di kotak jawaban yang tersedia!

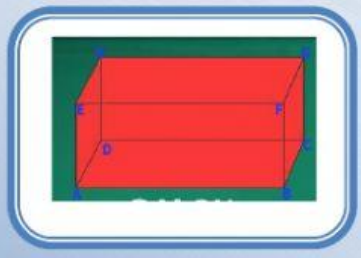

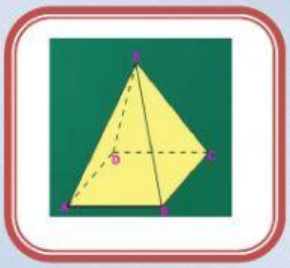

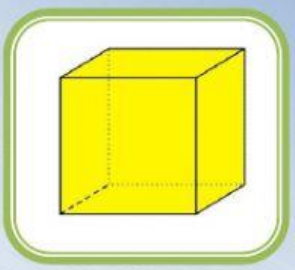

KUBUS

BALOK

LIMAS

LIVEWORKSHEETS