LKPD
MATEMATIKA

Penjumlahan dan Pengurangan



Nama:

Kelas:

LIVEWORKSHEETS

YUK BELAJAR PENGURANGAN

Hitunglah hasil pengurangan di bawah ini, lalu tuliskan hasilnya pada kolom yang telah disediakan!

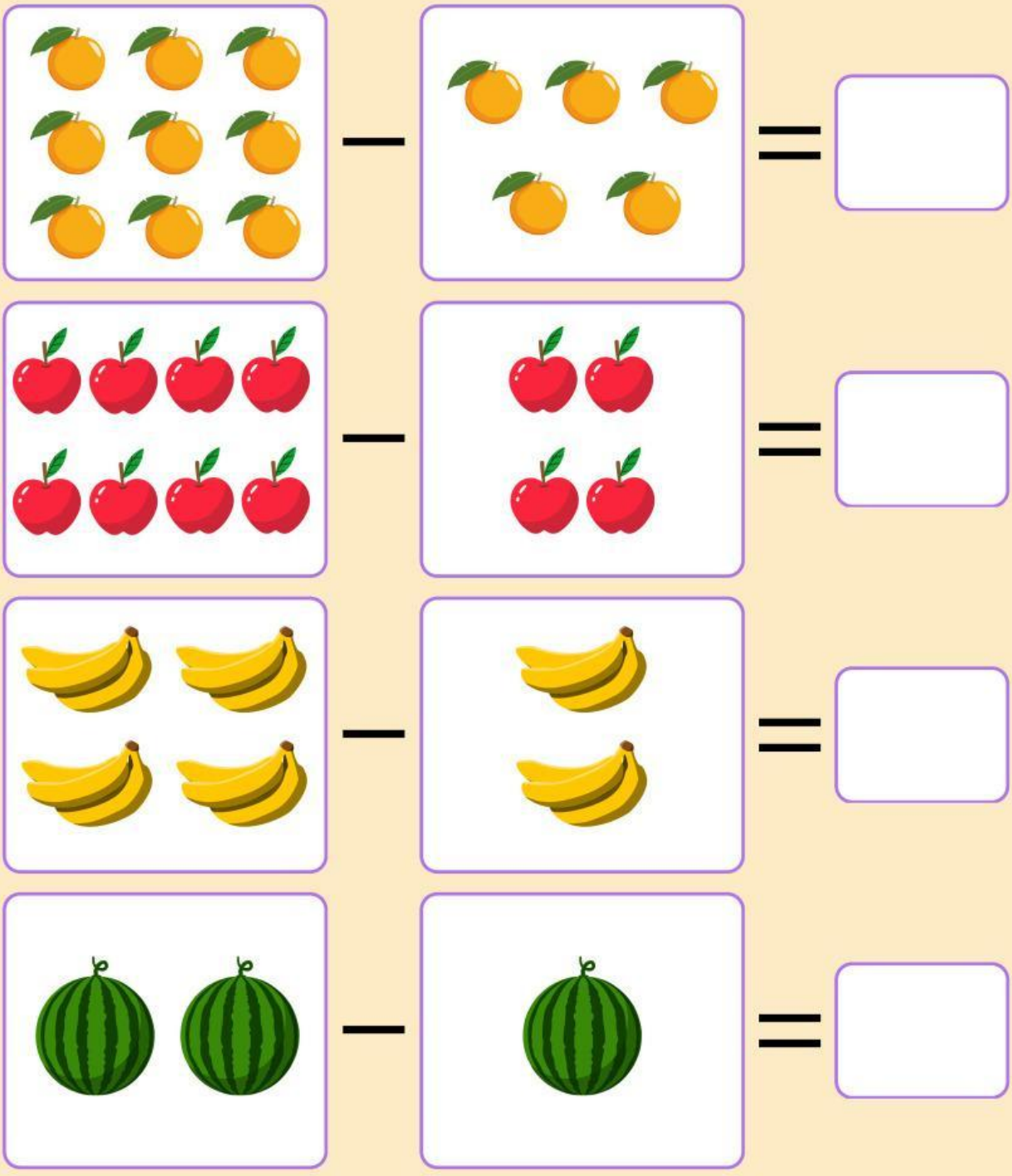

LIVEWORKSHEETS

PENJUMLAHAN

Hitung operasi penjumlahan dibawah ini, lalu tarik garis untuk menemukan jawabannya.

5 + 7 =	●	●	10
4 + 2 =	●	●	7
9 + 1 =	●	●	9
3 + 4 =	●	●	6
6 + 5 =	●	●	12
5 + 8 =	●	●	11
7 + 2 =	●	●	13

LIVEWORKSHEETS

PENJUMLAHAN

Selesaikan penjumlahan gambar di bawah ini lalu tuliskan jawabanmu di kotak yang telah disediakan!









LIVEWORKSHEETS

BERHiTUNG & MENCOCOKKAN

Hitunglah gambar di bawah ini lalu cocokkan dengan angka yang sesuai dengan jumlah gambar tersebut!











- 1
- 3
- 5
- 2
- 4

LIVEWORKSHEETS

PENJUMLAHAN PENGURANGAN

Hitunglah penjumlahan dan pengurangan di bawah ini lalu pilih jawaban yang benar

2 + 6		
5	7	8

2 + 3		
5	9	6

4 + 3		
6	7	8

3 + 7		
10	9	8

1 + 8		
7	6	9

4 + 5		
6	9	8

7 - 4		
3	5	2

10 - 5		
4	6	5

6 - 4		
2	3	1

9 - 2		
5	6	7

8 - 3		
6	5	4

4 - 2		
3	1	2

LIVEWORKSHEETS