أوراق دعم وتثبيت عن المفاهيم النظرية

لمادة الحوسبة وتكنولوجيا المعلومات

الوحدة الثالثة (أنا أبرمج)

الصف الثالث الابتدائي

LIVEWORKSHEETS

السؤال الأول: صل بين كل اتجاه والمصطلح الخاص به باللغة الإنجليزية:

إلى الأمام

إلى الخلف

يمين

يسار

السؤال الثاني:

أجب عن الأسئلة الآتية بوضع علامة صح أسفل الصورة المناسبة:

1- مثال على خطأ لغوي

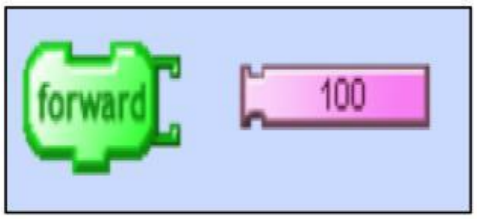

( )

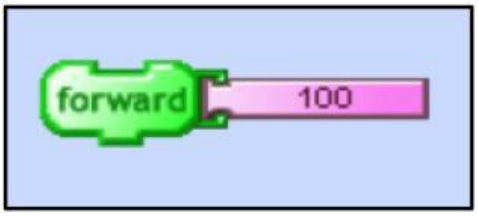

( )

2- أمر يُستخدم لجعل السلحفاة تستدير إلى اليسار بمقدار 90 درجة

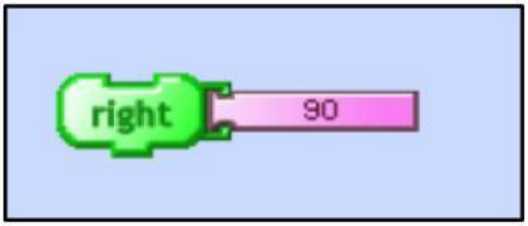

( )

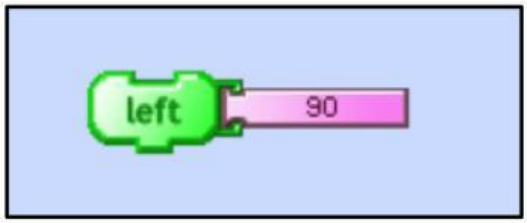

( )

LIVEWORKSHEETS

3- أمر يُستخدم لتحريك السلحفاة إلى الأمام بمقدار 100 خطوة

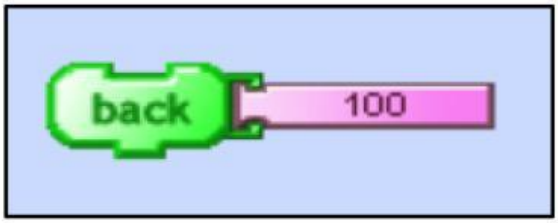

( )

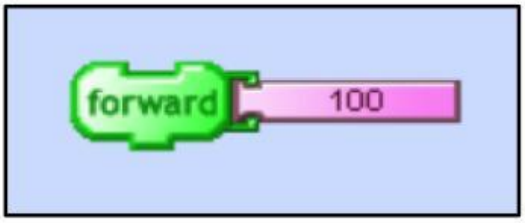

( )

السؤال الثالث:

اختر الإجابة الصحيحة للعبارات الآتية:

1. الشخصية الرئيسة في برنامج Turtle Art هي:
   - القط
   - السلحفاة
   - الكرة

---

2. هو موقف معين يجب إيجاد حل له
   - المشكلة
   - التسلسل
   - الخوارزمية

---

3. وضع خطوات الخوارزمية بالترتيب الصحيح
   - الخوارزمية
   - برنامج الحاسوب
   - التسلسل

LIVEWORKSHEETS

4. سلسلة من الأوامر التي تُعطى للحاسوب لتنفيذ مهمة محددة

- برنامج الحاسوب
- الخوارزمية
- التسلسل

---

5. يعد الخطأ الظاهر في الصورة خطأ .....

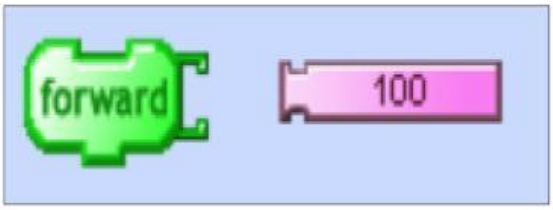

- حركي
- سمعي
- لغوي

السؤال الرابع:

1- رتب خطوات خوارزمية إعداد عصير الآتية ترتيباً صحيحاً بكتابة الرقم داخل المربع



LIVEWORKSHEETS

2- رتب خطوات الخوارزمية الآتية ترتيباً صحيحاً:

LIVEWORKSHEETS