NAMA:

KELAS:

NO:

LENGKAPI dan Jawablah Bagian-Bagian

Sistem Peredaran Darah

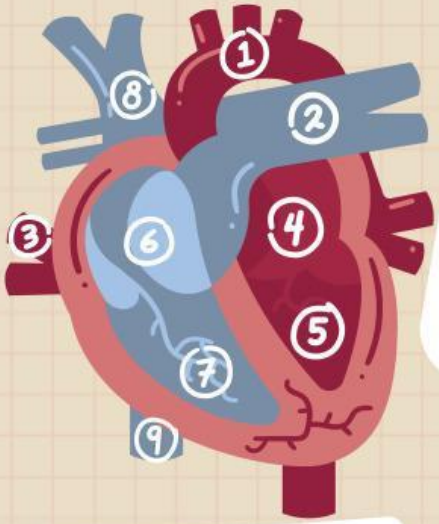

Bagian-bagian jantung

1.
2.
3.
4.
5.
6.
7.
8.
9.

JANTUNG

PEMBULUH DARAH

KAPILER

ARTERI

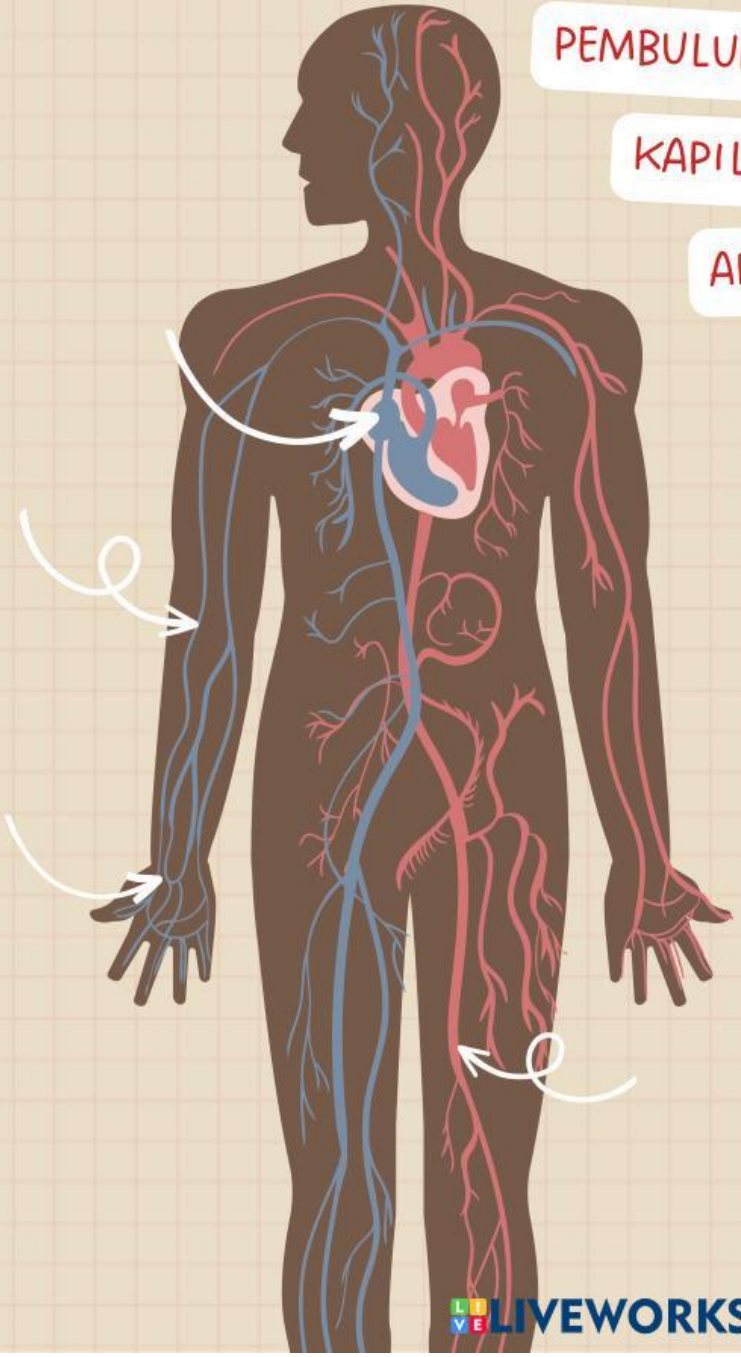

Seseorang mengalami gangguan pada paru-paru sehingga pertukaran oksigen terganggu. Bagian sistem peredaran darah yang paling terdampak adalah ....

A. Peredaran darah besar

B. Peredaran darah kecil

C. Pembuluh nadi

D. Serambi kiri

LIVEWORKSHEETS

CONTOH JAWABAN

Bagian-Bagian Sistem Peredaran Darah

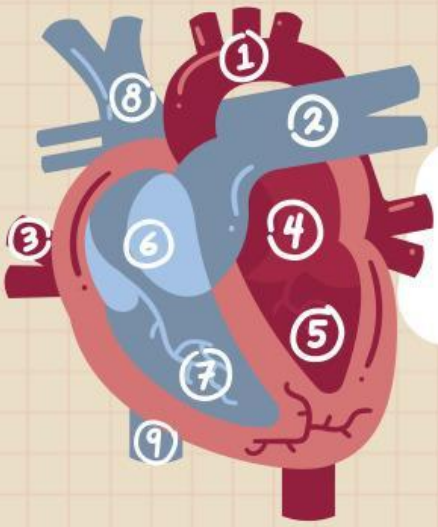

Bagian-bagian jantung

1. **Aorta**
2. **Arteri Pulmonalis**
3. **Vena Pulmonalis**
4. **Atrium kiri**
5. **Ventrikel kiri**
6. **Atrium kanan**
7. **Ventrikel Kanan**
8. **Vena cava superior**
9. **Vena cafa Inferior**

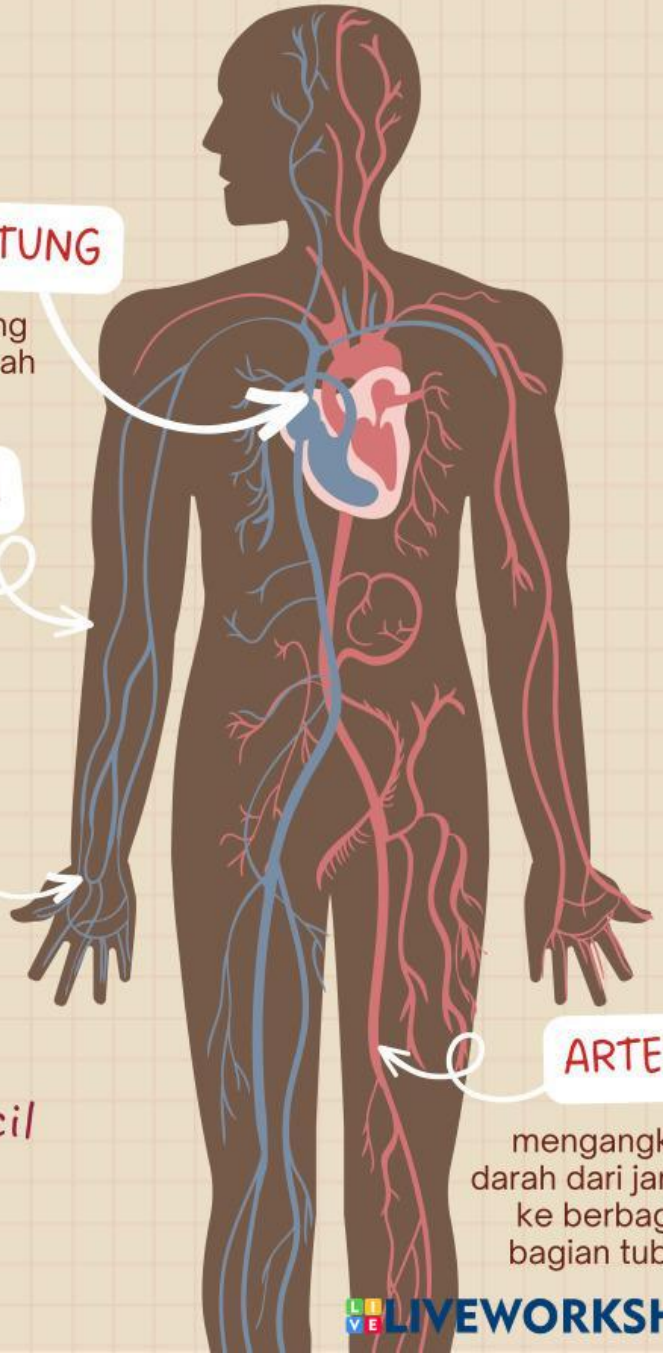

JANTUNG

organ otot yang memompa darah

PEMBULUH DARAH

mengangkut darah dari berbagai bagian tubuh ke jantung

KAPILER

sirkulasikan darah, nutrisi, dan oksigen ke berbagai sel organ; menghubungkan arteri ke pembuluh darah

ARTERI

mengangkut darah dari jantung ke berbagai bagian tubuh

B. Peredaran darah kecil

LIVEWORKSHEETS