LKM
lembar kerja murid

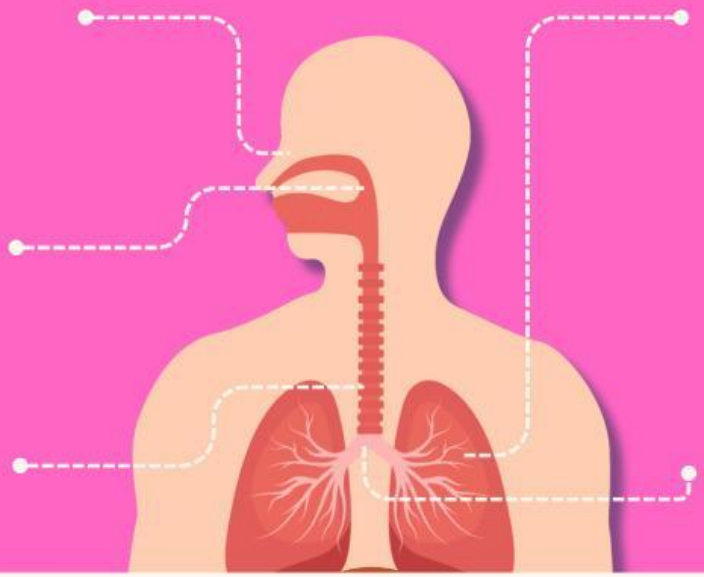

NAMA :

KELAS



LIVEWORKSHEETS

MENCOCOKKAN
SISTEM PERNAPASAN

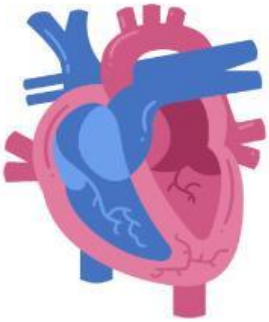

Hubungkan organ pernafasan sebelah kiri fungsi yang tepat di sebelah kanan dengan menarik garis.

Nama: Kelas:



- berfungsi menyalurkan udara dari trakea ke bronkiolus
- otot utama dalam pernapasan. Saat kita menarik napas
- pintu masuk utama udara ke dalam tubuh
- tabung yang menghubungkan laring dengan bronkus
- sebagai tempat pertukaran gas antara udara dan darah

LIVEWORKSHEETS

Nama: _____ **Kelas** _____

ORGAN PERNAPASAN MANUSIA

Tuliskan bagian-bagian organ pernapasan sesuai gambar di bawah ini!

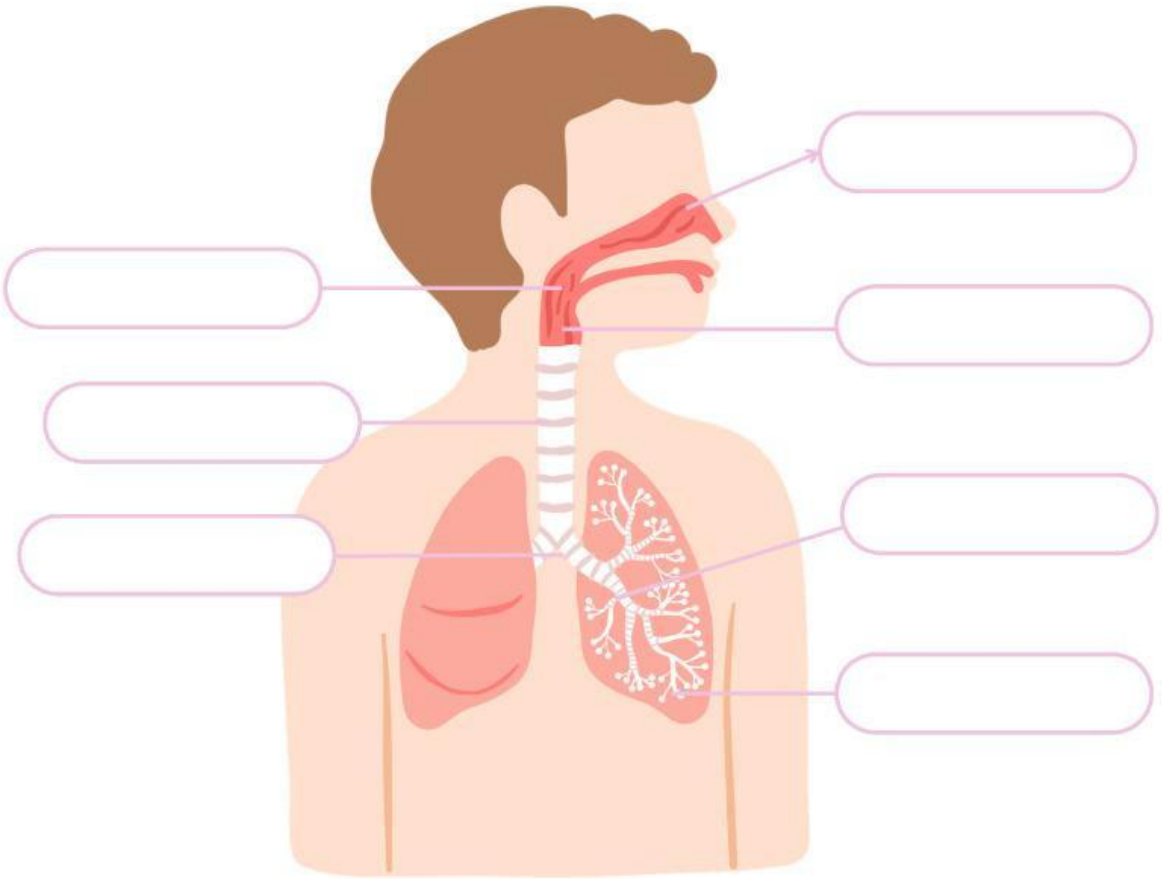

Gunakan nama organ pernapasan berikut untuk melengkapi gambar di atas

Laring | Trakhea | Brokhiolus | Hidung | Bronkhus | Alveolus | Faring | Paru-paru

Jawablah pertyaan di bawah dengan benar!

1. Tuliskan apa saja yang akan terjadi ketika kota tidak menjaga organ paru-paru kita?

.....

2. PPenyakit aap saja yang ditimbulkan jika tidak menjaga sistem pernapasan kita?

....

3. Bagaimana cara yang dapat kita lakukan untuk menjaga kesehatan tubuh terutama paru-paru kita?

....

LIVEWORKSHEETS