Perhatikan gambar hewan di bawah ini. Temukan tinggi hewan tersebut dengan menjawab pertanyaan berikut.

1. Tinggi bebek _____ kotak
2. Tinggi kambing _____ kotak
3. Tinggi jerapah _____ kotak
4. Hewan yang paling tinggi adalah _____
5. Hewan yang paling pendek adalah _____

LIVEWORKSHEETS

PENGUKURAN PANJANG DENGAN SATUAN TAK BAKU

Tentukan hasil pengukuran panjang benda berikut.

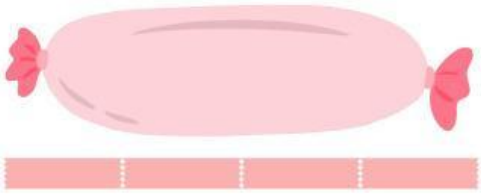

Panjang guling =____solatip.



Panjang sapu =____solatip.

Panjang gitar=____ paku.

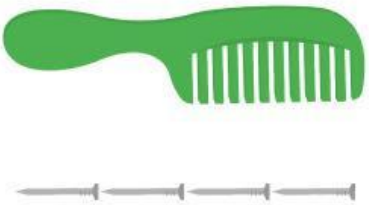

Panjang sisir =____ paku.

Panjang pensil =____korek api.

LIVEWORKSHEETS