IPAS

LKPD

Wujud Benda dan Perubahannya

Nama: _____

Kelas: _____



LIVEWORKSHEETS

Perubahan Wujud Zat

Mencocokkan gambar dengan nama perubahan wujud zat yang terjadi pada gambar tersebut dengan menggambar garis dari gambar ke kotak nama yang sesuai.

Es Batu

Air dipanaskan

Embun di pagi hari

Mencair

Mengembun

Menguap

Tutup panci saat memasak

Mentega di panaskan

Pakaian di jemur

LIVEWORKSHEETS

Nama :

Kelas :

Perubahan Wujud Benda

Hubungkan gambar perubahan wujud benda di bawah ini dengan namanya!

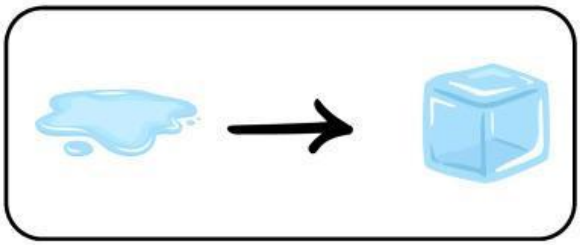

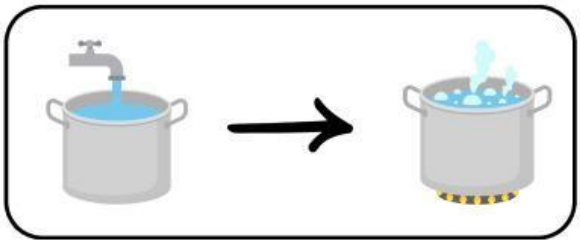

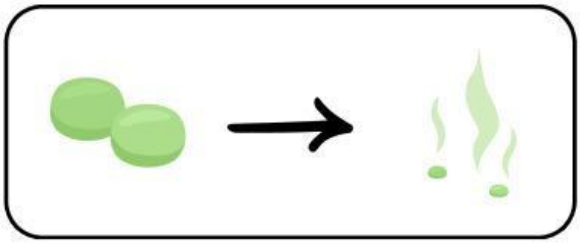

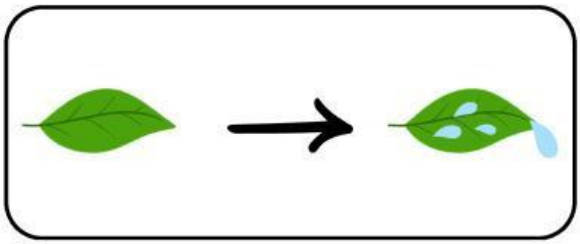

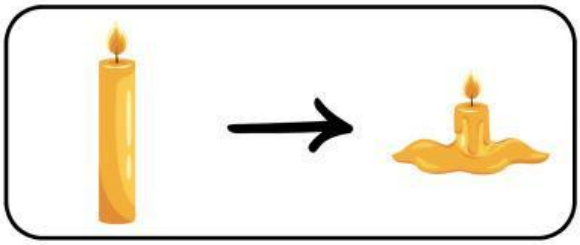

- Mengembun
- Mencair
- Membeku
- Menyublim
- Menguap

LIVEWORKSHEETS

Nama: _____ Kelas: _____

Lengkapi bagian-bagian peta konsep berikut dengan jawaban yang sesuai!

JENIS-JENIS Perubahan Wujud

Mencair

Perubahan dari ... ke ...:

Contoh perubahan:

Membeku

Perubahan dari ... ke ...:

Contoh perubahan:

Menguap

Perubahan dari ... ke ...:

Contoh perubahan:

Mengembun

Perubahan dari ... ke ...:

Contoh perubahan:

LIVEWORKSHEETS

Nama : Kelas :

TENTUKAN WUJUD BENDA

Gunting dan tempelkan gambar pada kolom yang sesuai

Cair	Gas

LIVEWORKSHEETS

Nama: _____ *Penilaian:* _____

Kelas: _____ ☆☆☆☆☆

PERUBAHAN WUJUD BENDA

Jawablah pertanyaan berikut dengan penjelasan singkat.

1 **Sebutkan tiga sifat utama benda padat, cair, dan gas!**

Jawab: _____

2 **Bandingkan perubahan wujud lilin yang meleleh dan air yang membeku! Apa perbedaannya?**

Jawab: _____

3 **Tuliskan contoh peristiwa menguap, menyublim, dan mengembun yang terjadi di rumahmu!**

Jawab: _____

4 **Mengapa balon bisa pecah jika dibiarkan di bawah terik matahari terlalu lama? Jelaskan dengan alasan ilmiah!**

Jawab: _____

Kritik/Saran: _____ *Paraf:*

LIVEWORKSHEETS