Lembar Kerja Peserta Didik

# LKPD

# MATEMATIKA

## PENGUKURAN PANJANG DENGAN SATUAN BAKU

Nama:

Kelas:

LIVEWORKSHEETS

# LKPD

## Mengukur Benda

Ukur panjang benda di bawah ini dan tuliskan hasilnya pada tabel di sebelahnya.

| Pengukuran panjang benda | Satuan baku |
|---|---|
| 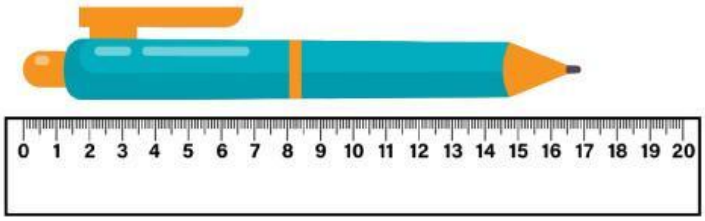 | _____ cm |
| 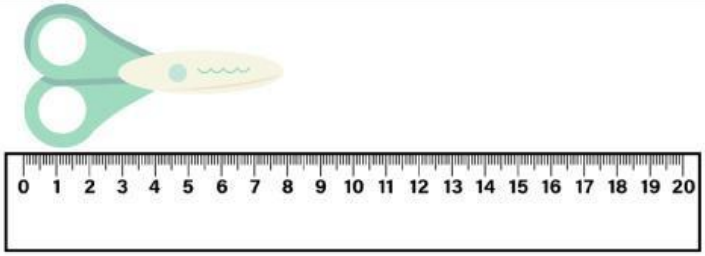 | _____ cm |
| 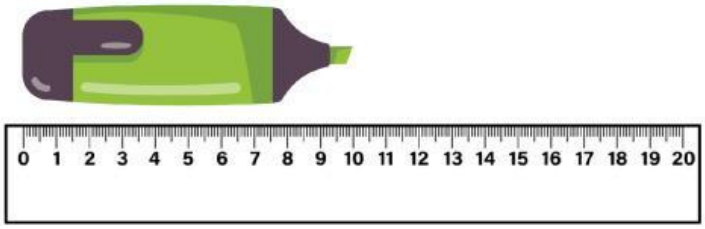 | _____ cm |
| 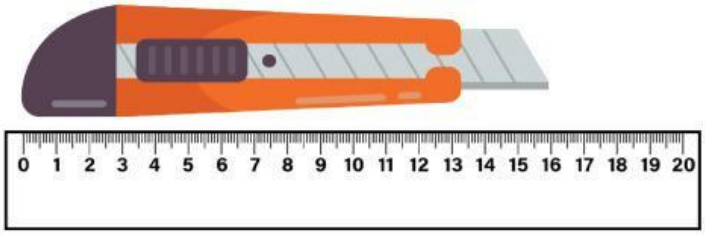 | _____ cm |
| 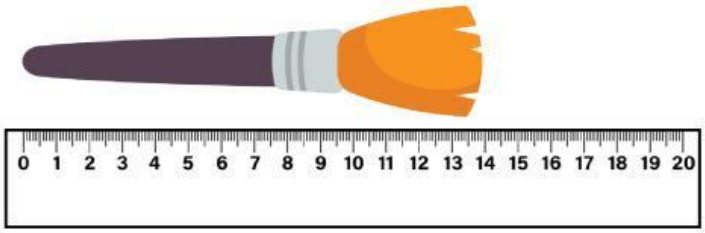 | _____ cm |

LIVEWORKSHEETS

# PENGUKURAN PANJANG BENDA

## Kerjakan soal-soal berikut sesuai perintahnya!

Pasangkan gambar pengukuran panjang benda dengan alat ukur yang tepat.

Penggaris

Meteran

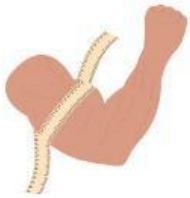

Meteran gulung

Pengukur tinggi badan

LIVEWORKSHEETS

# SATUAN PANJANG

Perhatikan gambar tangga konversi satuan panjang di bawah ini kemudian kerjakan soal dengan tepat!

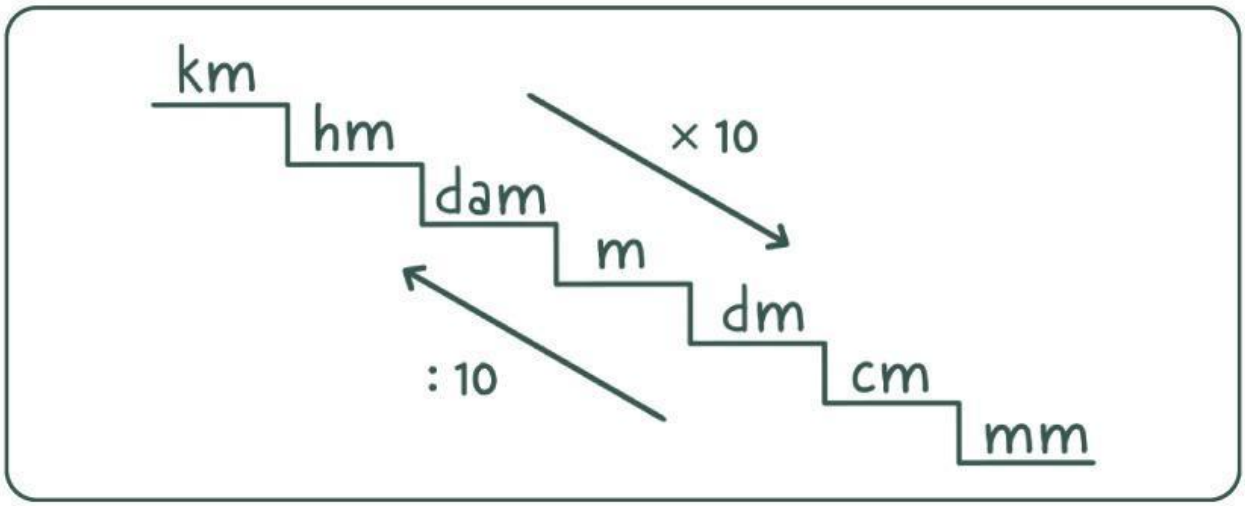


1. 25 km = _____ m
2. 20 hm = _____ cm
3. 200 cm = _____ m
4. 3 dm = _____ mm
5. 40 m = _____ cm
6. 300 mm = _____ dm
7. 15 dam = _____ cm
8. 8 km = _____ dm
9. 15 hm = _____ dam
10. 15 km = _____ cm

LIVEWORKSHEETS

# SOAL EVALUASI

## PENGUKURAN PANJANG DENGAN SATUAN BAKU

jawab pertanyaan tersebut dengan memberikan warna pada lingkaran jawaban yang paling tepat

1. Satuan baku untuk mengukur panjang adalah .....

- O Kilogram
- O Liter
- O Meter
- O Detik

2. Alat yang biasa digunakan untuk mengukur panjang adalah .....

- O Termometer
- O Timbangan
- O Penggaris
- O Stopwatch

3. Rika memiliki pensil dengan panjang 15 cm, berarti panjang pensil itu

- O 15 meter
- O 15 liter
- O 15 sentimeter
- O 15 kilogram

4. Meja di rumah Roni panjangnya 2 meter dan lebar 1 meter. Panjang meja tersebut dalam sentimeter adalah .....

- O 20 cm
- O 2.000 cm
- O 200 cm
- O 0,2 cm

| CATATAN: | NILAI: |
|---|---|
| | |

LIVEWORKSHEETS

# CARILAH BENDA DISEKITAR MU!!

carilah benda disekitar kalian yang dapat diukur panjangnya, lalu presentasikan di depan kelas!!!

| No. | Nama benda | Alat untuk mengukur | Panjang |
|---|---|---|---|
| | | | |
| | | | |
| | | | |
| | | | |
| | | | |
| | | | |

LIVEWORKSHEETS