ŽMONIŲ GYVENIMAS SKIRTINGAIS ISTORIJOS LAIKOTARPIAIS
Visuomeninis ugdymas

1. Kokius istorijos šaltinius tiria mokslininkai? Priskirk objektams tinkamą raidę. **2 taškai**


Strėlių antgaliai


Liublino unija


Urvo piešinys

Medininkų pilis

A) Knygos, laiškai
B) Žmonių prisiminimai, pasakojimai
C) Meno kūriniai
D) Dokumentai, sutartys
E) Daiktai, jų liekanos
F) Pastatai, jų liekanos

2. Ką praeities tyrėjams liudija urvo piešinys? Parašyk. **2 taškai**

Urvo piešinys liudija, kad .....

.....

LIVEWORKSHEETS

3. **Kuris istorijos šaltinis yra patikimesnis praeities įrodymas? Pažymėk ✓.** **2 taškai**

A) Pirminis, sukurtas tuo metu, kai įvykis įvyko.	◯
B) Antrinis, sukurtas apie įvykį daug vėliau, nei jis įvyko.	◯

- **Argumentuok, kodėl taip manai.**

.....

.....

4. **Markas žino, kad Lietuvos valstybė įkurta XIII amžiuje, nes karalius Mindaugas karūnuotas 1253 metais. O koks šių įvykių amžius? Parašyk.** **3 taškai**



A) Lietuvos vardas pirmą kartą paminėtas 1009 metais

B) Žalgirio mūšis įvyko 1410 metais



C) Pirmosios olimpinės žaidynės senovės Graikijoje įvyko 776 metais prieš Kristų

5. **Išrikiuok 4 užduotyje nurodytus įvykius. Laiko juostoje pažymėk jų raides.** **2 taškai**

LIVEWORKSHEETS

6. **Koks įvykis atskiria priešistorės ir senovės civilizacijų laikotarpius? Pažymėk ✓ tinkamą atsakymą.** **2 taškai**

A) Žmonės užsiėmė žemdirbyste	○
B) Žmonės ėmė auginti gyvulius	○
C) Žmonės ėmė naudoti raštą	○
D) Žmonės išmoko apdirbti metalą	○

- **Kodėl šis įvykis reikšmingas? Argumentuok.**

.....

.....

7. **Kokie žmonių gyvenimo pokyčiai įvyko priešistorės laikotarpiu? Perskaityk teiginius. Jų raides įrašyk į tinkamus paveikslėlius.** **2 taškai**







A) Žmonės klajojo paskui laukinius gyvūnus

B) Žmonės nustojo klajoti ir ėmė gyventi sėsliai

C) Žmonės tik medžiojo, žvejojo ir rankiojo maistą

D) Sunkiam darbui palengvinti žmonės ėmė naudoti gyvulių jėgą ir paprastuosius mechanizmus

E) Žmonės prisijaukino laukinius gyvūnus

F) Didėjant derliui dalį maisto produktų žmonės galėjo parduoti

LIVEWORKSHEETS

8. **Kas po ko įvyko? Sunumeruok įvykius nuo seniausio.** **3 taškai**

Žmonės nustojo klajoti ir statėsi būstus iš medžio	◯
Žmonės kūrėsi miestuose greta didesnių gamybos įmonių	◯
Žmonės ėmė statytis pilis ir įtvirtintas gyvenvietes	◯
Žmonės klajojo, todėl statėsi laikinus būstus	◯
Žmonės ėmė statyti daugiaaukščius namus iš gelžbetonio ir stiklo	◯

- **Kuriuo laikotarpiu atsirado pirmosios mokyklos? Pažymėk ✓.**

Priešistorė ◯ Senovės civilizacijos ◯ Viduramžiai ◯

Naujieji laikai ◯ Naujausieji laikai ◯

9. **Ką žmonės gamino išmokę apdirbti geležį? Pateik po vieną pavyzdį.** **2 taškai**

Įrankis		Ginklas	

10. **Kas kada sukurta? Pažymėk raidėmis: S – senovės laikotarpiu; V – viduramžių laikotarpiu.** **2 taškai**

LIVEWORKSHEETS

11. **Ką sukūrė naujųjų, o ką naujausiųjų laikų gyventojai?** **3 taškai**
Pažymėk išradimus raidėmis: N – naujųjų laikų; NN – naujausiųjų laikų.

- **Kuriuo laikotarpiu buvo sukurti prisukami mechaniniai žaislai? Parašyk.**

.....

12. **Išrikiuok žaislus laiko juostoje įrašęs (įrašiusi) raides.** **2 taškai**

A) Supamasis arkliukas | B) Šachmatai | C) Plastikinės kaladėlės | D) Kompiuterinis žaidimas | E) Medinė lėlė

LIVEWORKSHEETS